GEOGRAFIA · KARTA PRACY

Kierunki świata i plan

7–9 lat

klasa 1–3

Imię i nazwisko: _____ Klasa: _____ Data: _____

Na mapach i planach **północ** jest zawsze na górze. Litery na róży wiatrów to skróty angielskich nazw: **N** – północ, **S** – południe, **E** – wschód, **W** – zachód.

1 Róża wiatrów. Wpisz w ramki nazwy kierunków.

wschód · północ · zachód · południe

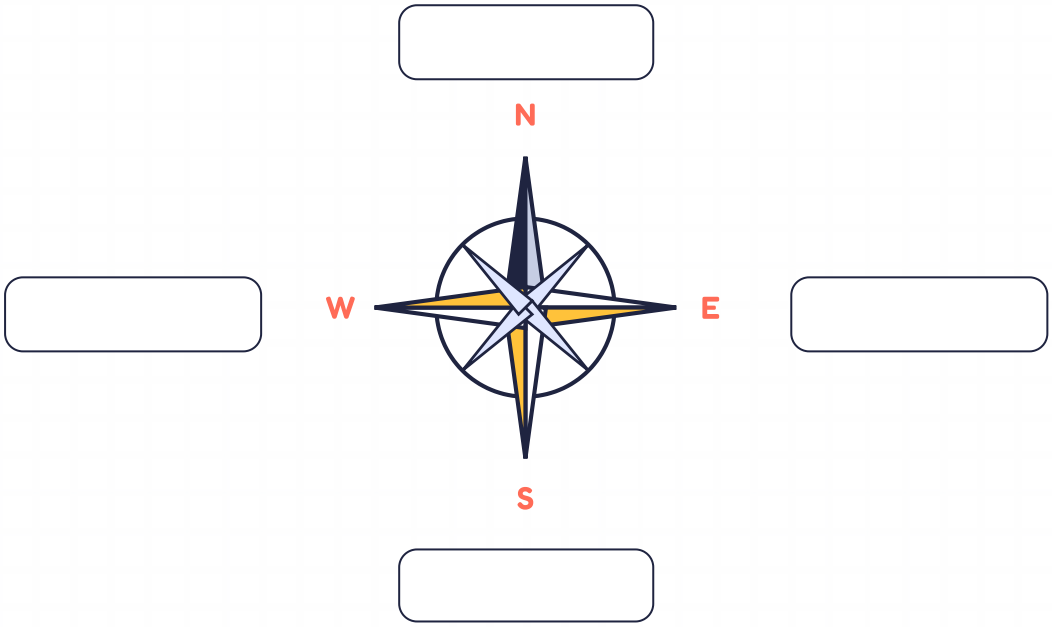

2 Wędrówka słońca. Dokończ zdania.

Patrzymy w stronę południa: wschód jest po lewej, zachód – po prawej.

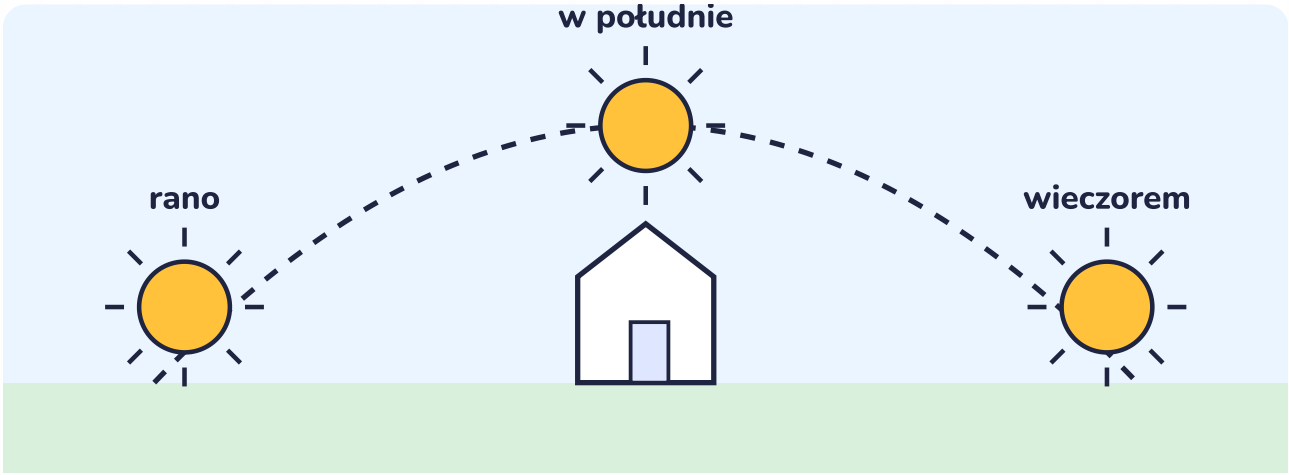

1. Rano słońce wschodzi na _____.
2. W południe słońce jest wysoko na _____.
3. Wieczorem słońce zachodzi na _____.

3 Plan parku. Przyjrzyj się planowi i legendzie.

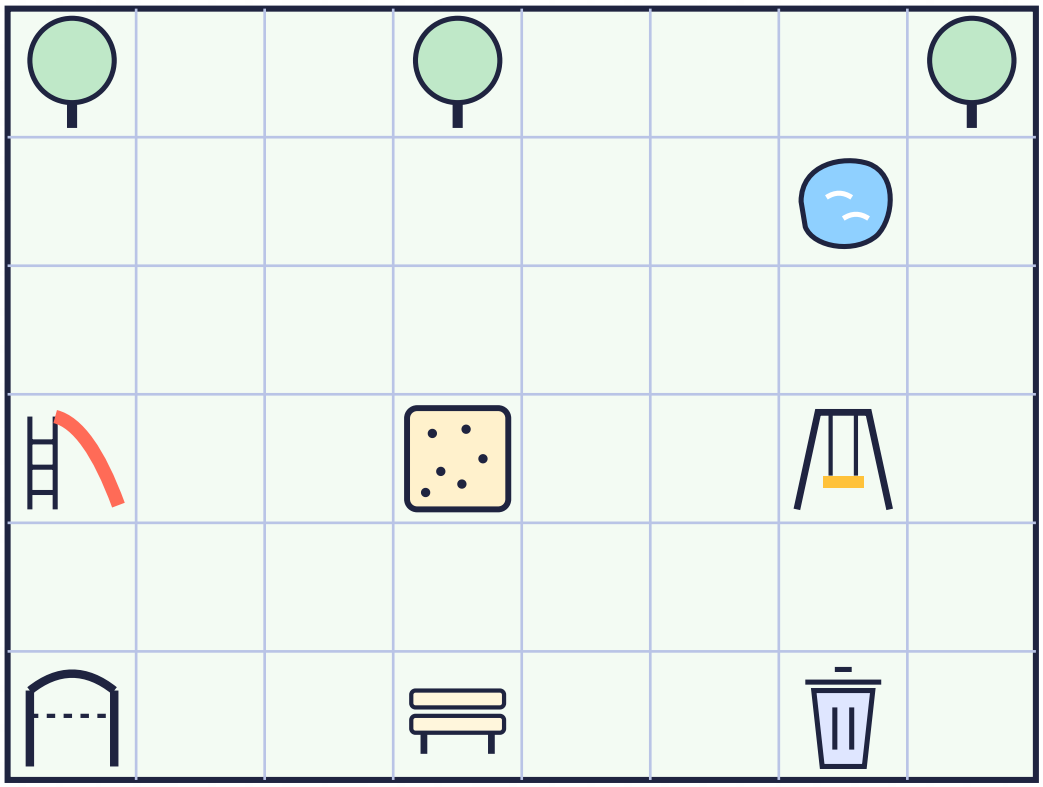

Strzałka pokazuje północ.

Legenda

- drzewo
- staw
- zjeżdżalnia
- piaskownica
- huśtawka
- ławka
- kosz na śmieci
- brama

4 Co jest obok piaskownicy? Uzupełnij zdania.

1. Na północ od piaskownicy rośnie _____.
2. Na wschód od piaskownicy stoi _____.
3. Na południe od piaskownicy stoi _____.
4. Na zachód od piaskownicy jest _____.
5. Staw leży na północ od _____.

5 Spacer po parku. Zacznij przy bramie i licz kratki. Gdzie jesteś?

Przesuwaj palec po planie z kratki na kratkę. Możesz zaznaczać trasę ołówkiem.

1. 2 kratki na północ, potem 3 kratki na wschód → jestem przy: _____
2. 6 kratek na wschód, potem 4 kratki na północ → jestem przy: _____
3. ★ 5 kratek na północ, potem 3 kratki na wschód → jestem przy: _____

6 Dorysuj na planie parku.

1. Narysuj kwiatek w kratce tuż na wschód od ławki.
2. Narysuj znak X w kratce tuż na południe od stawu.

7 Widok z góry. Wpisz literę obrazka, który pokazuje ten przedmiot z góry.

Plan to rysunek tego, co widzi ptak lecący wysoko nad ziemią.

Z boku

1.  piłka ☐
2.  dom ☐
3.  kubek ☐
4.  parasol ☐

Z góry (jak na planie)

A 

B 

C 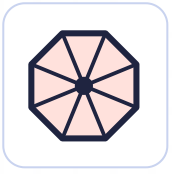

D 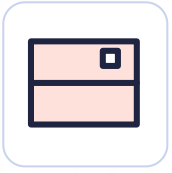

8 Plan mojego pokoju. Narysuj go z góry i zrób legendę. ★

N ↑

Legenda

☐ _____

☐ _____

☐ _____

☐ _____

☐ _____

☐ _____

Odpowiedzi – Kierunki i plan

7–9 lat

Odpowiedzi

1 Róża wiatrów

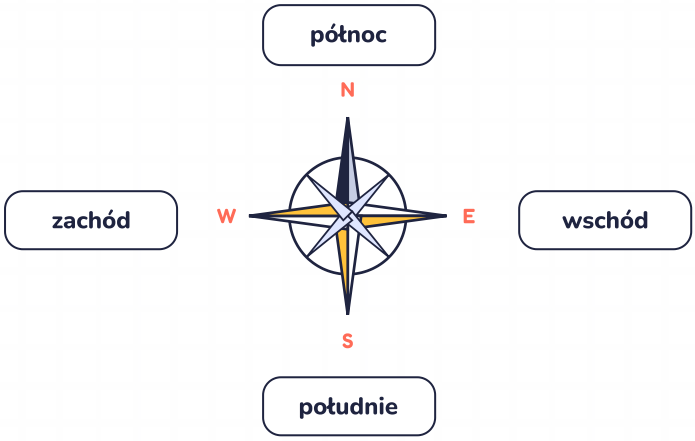

2 Słońce

1. Rano słońce wschodzi na **wschodzie**.
2. W południe słońce jest wysoko na **południu**.
3. Wieczorem słońce zachodzi na **zachodzie**.

Dokładnie na wschodzie i zachodzie słońce jest tylko wiosną i jesienią (w dniu równonocy); latem wschodzi bardziej na północnym wschodzie, zimą – na południowym wschodzie.

3–6 Plan z trasami

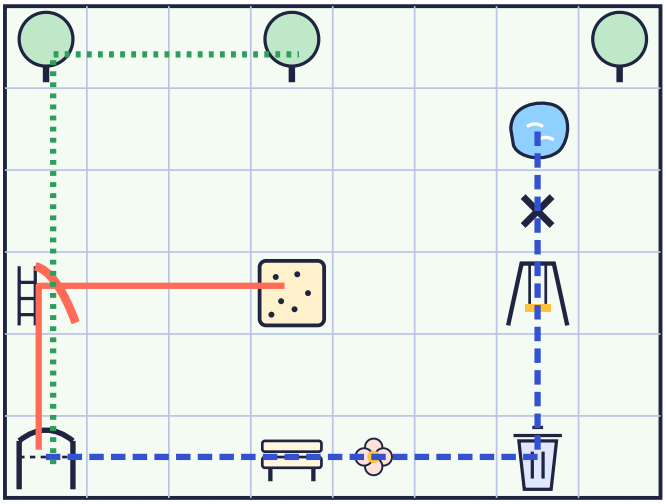

4. Obok piaskownicy

na północ – **drzewo**, na wschód – **huśtawka**, na południe – **ławka**, na zachód – **zjeżdżalnia**; staw – na północ od **huśtawki**.

5. Spacer

1) **piaskownica** (linia ciągła) · 2) **staw** (kreskowana) · 3) ★ **drzewo** (kropkowana – drzewo w górnym rzędzie, nad piaskownicą)

6. Dorysuj

Kwiatek – w kratce na prawo od ławki; X – w kratce pod stawem (zaznaczone na planie powyżej).

7. Widok z góry

1. piłka – B · 2. dom – D · 3. kubek – A · 4. parasol – C

Piłka wygląda tak samo z każdej strony – z góry też jest kołem.

8.

Odpowiedzi własne. Sprawdź, czy przedmioty są narysowane z góry (np. łóżko jako prostokąt) i czy każdy znak ma opis w legendzie.