Karta misji: Kontynenty i oceany



Dedi: Ahoj! Płyniemy przez ocean. Gary twierdzi, że „kontynent to każda duża wyspa”. Sprawdźmy, ile jest kontynentów i jak nazywają się oceany, które je otaczają. W polskiej szkole mówimy o **7 kontynentach** i **5 oceanach**.

Cel misji – nauczysz się:

- nazywać i pokazywać na mapie 7 kontynentów i 5 oceanów,
- porównywać ich wielkość,
- określać położenie kontynentów względem równika i południka zerowego.

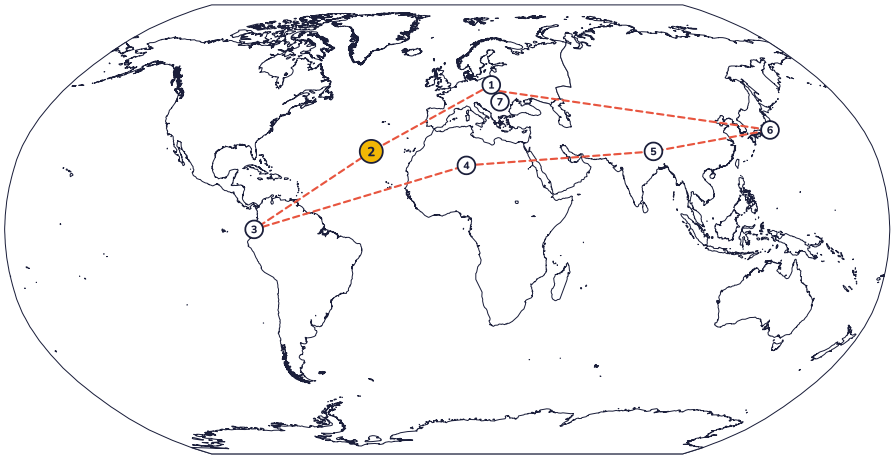

KOD QR
film wkrótce

🎬 FILM DO TEJ KARTY

Misja 2: Kontynenty i oceany

Krótki film (2–4 min) z Filem, Garym i Dedim. Pojawi się wkrótce – kod QR i link dodamy na stronie **glowkowniadruk.pl/geografia-na-wyprawie**. Do tego czasu zacznij od zadań!

Łatwy	Średni	Trudny	Super trudny
kl. 3–4	kl. 4–5	kl. 5–6	kl. 7–8
☐ zrobione	☐ zrobione	☐ zrobione	☐ zrobione

Ukończona misja? Wklej pieczątkę „Misja 2” do **Paszportu podróżnika** albo zaznacz ją w paszporcie online.

MISJA 2 · KONTYNENTY I OCEANY

Gdzie są kontynenty i oceany?

Poziom 1 · Łatwy kl. 3–4 ●○○○

🎬 Film do tej karty: *wkrótce*

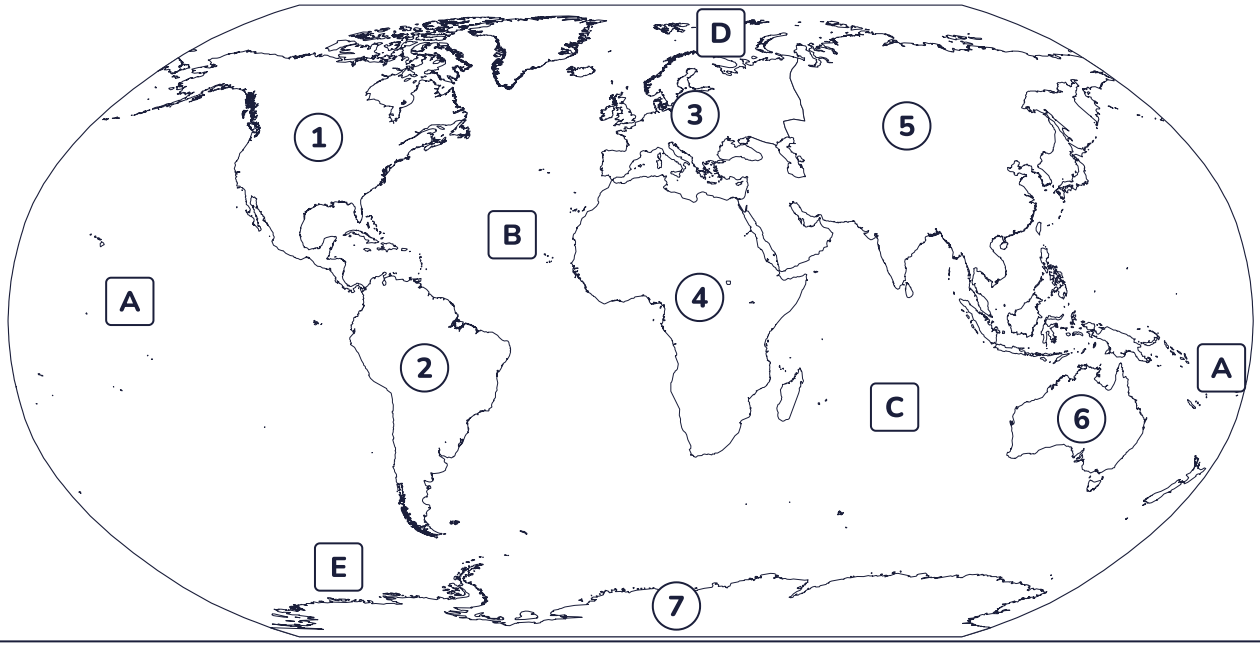

1 Wpisz nazwy kontynentów przy numerach.

Afryka | Ameryka Południowa | Antarktyda | Australia | Azja | Europa | Ameryka Północna

1. _____ 2. _____
3. _____ 4. _____
5. _____ 6. _____
7. _____

2 Wpisz nazwy oceanów przy literach.

Ocean Arktyczny | Ocean Indyjski | Ocean Spokojny | Ocean Południowy | Ocean Atlantycki

A. _____ B. _____
C. _____ D. _____
E. _____

Największy, najmniejszy, najzimniejszy

Poziom 2 · Średni kl. 4–5 ●●○○

Film do tej karty: *wkrótce*

1 Ułóż kontynenty od największego (1) do najmniejszego (7). Wpisz numery w kratki.

☐ Europa ☐ Azja ☐ Australia ☐ Afryka

☐ Antarktyda ☐ Ameryka Północna ☐ Ameryka Południowa

2 Prawda (P) czy fałsz (F)? Zakreśl.

1. Na Ziemi jest 7 kontynentów. **P F**
2. Największym oceanem jest Ocean Atlantycki. **P F**
3. Antarktyda leży wokół bieguna południowego. **P F**
4. Europa i Azja leżą na jednym wielkim lądzie – Eurazji. **P F**
5. Australia jest najmniejszym kontynentem. **P F**
6. Ocean Arktyczny jest największym oceanem. **P F**

3 Dokończ zdania.

1. Najzimniejszy kontynent, pokryty grubym lodem, to _____.
2. Kontynent, na którym leży Polska, to _____.
3. Ocean między Afryką a Australią to _____.
4. Ocean wokół bieguna północnego to _____.



Gary podpowiada: Myślałem, że Grenlandia to kontynent, bo jest wielka! A to największa wyspa świata – leży w Ameryce Północnej.

Kontynenty a równik i południk zerowy

Poziom 3 · Trudny kl. 5–6 ●●●○

Film do tej karty: *wkrótce*

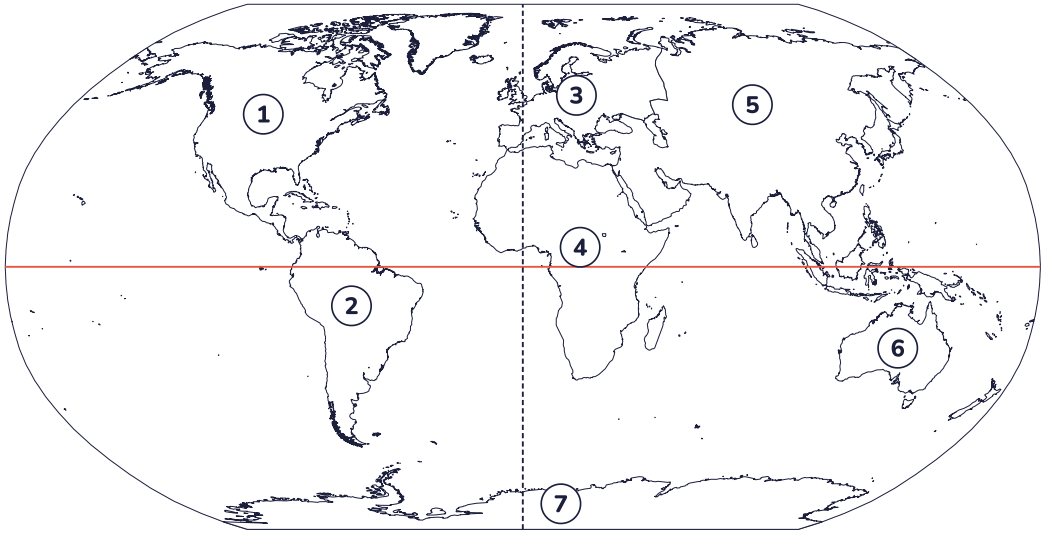

Czerwona linia – równik, przerywana – południk zerowy.

1 Na której półkuli leży kontynent? Postaw X.

Kontynent	tylko północna	tylko południowa	obie
Ameryka Północna			
Ameryka Południowa			
Europa			
Afryka			
Australia			
Antarktyda			

2 Odpowiedz.

1. Równik przechodzi przez lądy Afryki i Ameryki Południowej, a trzeci kontynent przecina tylko na wyspach (Indonezja). Który? _____
2. Który kontynent przecinają i równik, i południk zerowy? _____
3. Jaki ocean oddziela Europę i Afrykę od obu Ameryk? _____

MISJA 2 · KONTYNENTY I OCEANY

Półkule, oceany i wielkie wyprawy

Poziom 4 · Super trudny kl. 7–8 ●●●●

🎬 Film do tej karty: *wkrótce*

1 **Na której półkuli – wschodniej (E) czy zachodniej (W) – leży kontynent? Wpisz E, W albo „obie”.**
Granice półkul: południk 0° i południk 180°.

Ameryka Południowa	Australia	Afryka	Europa	Azja	Antarktyda

2 **Ułóż oceany od największego (1) do najmniejszego (5).**

☐ Indyjski ☐ Spokojny ☐ Arktyczny ☐ Atlantycki ☐ Południowy

3 **Przez które oceany płynęli? Wpisz nazwy oceanów.**

Wyprawa	Trasa	Oceany
Krzysztof Kolumb, 1492	z Hiszpanii do wysp w pobliżu Ameryki	
Vasco da Gama, 1497–1499	z Portugalii dookoła Afryki do Indii i z powrotem	
Ferdynand Magellan i Juan Sebastián Elcano, 1519–1522	pierwsze opłynięcie Ziemi: z Hiszpanii przez cieśninę na południu Ameryki i przez Filipiny, a potem dookoła Afryki	

4 **Azja leży też na półkuli zachodniej. Jaki jej kraniec „wystaje” za południk 180°?**

_____

KLUCZ ODPOWIEDZI

Misja 2 – Kontynenty i oceany

Poziom 1

1. 1 Ameryka Północna, 2 Ameryka Południowa, 3 Europa, 4 Afryka, 5 Azja, 6 Australia, 7 Antarktyda.
2. A – Ocean Spokojny (zaznaczony dwa razy, bo leży po obu stronach mapy), B – Ocean Atlantycki, C – Ocean Indyjski, D – Ocean Arktyczny, E – Ocean Południowy.

Poziom 2

1. 1 Azja, 2 Afryka, 3 Ameryka Północna, 4 Ameryka Południowa, 5 Antarktyda, 6 Europa, 7 Australia.
2. P, F (największy jest Ocean Spokojny), P, P, P, F (Arktyczny jest najmniejszy).
3. Antarktyda; Europa; Ocean Indyjski; Ocean Arktyczny.

Poziom 3

1. Tylko północna: Ameryka Północna, Europa. Tylko południowa: Australia, Antarktyda. Obie: Ameryka Południowa, Afryka.
2. Azja; Afryka; Ocean Atlantycki.

Poziom 4

1. Ameryka Południowa – W; Australia – E; Afryka – obie; Europa – obie; Azja – obie; Antarktyda – obie.
2. 1 Spokojny, 2 Atlantycki, 3 Indyjski, 4 Południowy, 5 Arktyczny.
3. Kolumb – Ocean Atlantycki. Vasco da Gama – Atlantycki i Indyjski. Magellan i Elcano – Atlantycki, Spokojny i Indyjski (Magellan zginął w 1521 r. na Filipinach, podróż dokończył Elcano).
4. Wschodni kraniec Azji – Półwysep Czukocki (przylądek Dieżniowa leży na ok. 169°40' W, czyli na półkuli zachodniej).

Liczba kontynentów i oceanów – według polskiej szkoły i Komisji Standaryzacji Nazw Geograficznych (nazwy oceanów). Kolejność wielkości: Encyclopaedia Britannica (kontynenty), NOAA (oceany).