Karta misji: Stolice świata



Dedi: Ahoj! Nasz statek zawija do portów, a samolot ląduje w stolicach. Gary chce wysłać pocztówkę z każdej stolicy, ale ciągle myli Sydney z Canberrą... Pomóż mu poznać stolice sąsiadów Polski, Europy i świata – i ich flagi.

Cel misji – nauczysz się:

- poznawać stolice sąsiadów Polski i państw Europy,
- wskazywać stolice na mapie i rozpoznawać flagi,
- unikać pułapek: nie zawsze największe miasto jest stolicą.

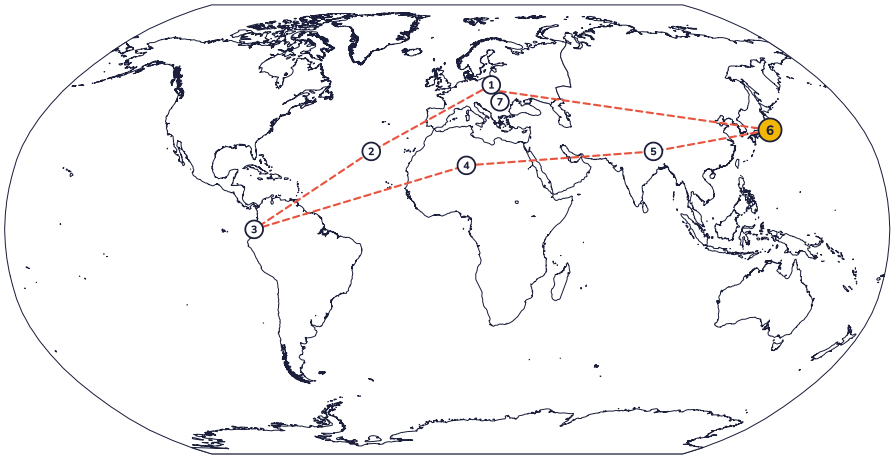

KOD QR
film wkrótce

🎬 FILM DO TEJ KARTY

Misja 6: Stolice świata

Krótki film (2–4 min) z Filem, Garym i Dedim. Pojawi się wkrótce – kod QR i link dodamy na stronie **glowkowniadruk.pl/geografia-na-wyprawie**. Do tego czasu zacznij od zadań!

Łatwy	Średni	Trudny	Super trudny
kl. 3–4	kl. 4–5	kl. 5–6	kl. 7–8
☐ zrobione	☐ zrobione	☐ zrobione	☐ zrobione

Ukończona misja? Wklej pieczątkę „Misja 6” do **Paszportu podróżnika** albo zaznacz ją w paszporcie online.

MISJA 6 · STOLICE ŚWIATA

Sąsiedzi Polski i ich stolice

Poziom 1 · Łatwy kl. 3–4 ●○○○

🎬 Film do tej karty: *wkrótce*

1 Polska ma 7 sąsiadów. Wpisz stolicę każdego z nich.

Wilno · Berlin · Moskwa · Kijów · Praga · Mińsk · Bratysława

Państwo	Stolica
Niemcy	
Czechy	
Słowacja	
Ukraina	
Białoruś	
Litwa	
Rosja	

2 Pokoloruj flagi według opisu.

Polska
u góry biały, na dole czerwony

Niemcy
czarny, czerwony, złoty (żółty)

Ukraina
u góry niebieski, na dole żółty

Litwa
żółty, zielony, czerwony



Fil: Stolica Polski to Warszawa. Leży nad Wisłą – najdłuższą rzeką Polski.

MISJA 6 · STOLICE ŚWIATA

Stolice Europy na mapie

Poziom 2 · Średni kl. 4–5 ●●○○

Film do tej karty: *wkrótce*

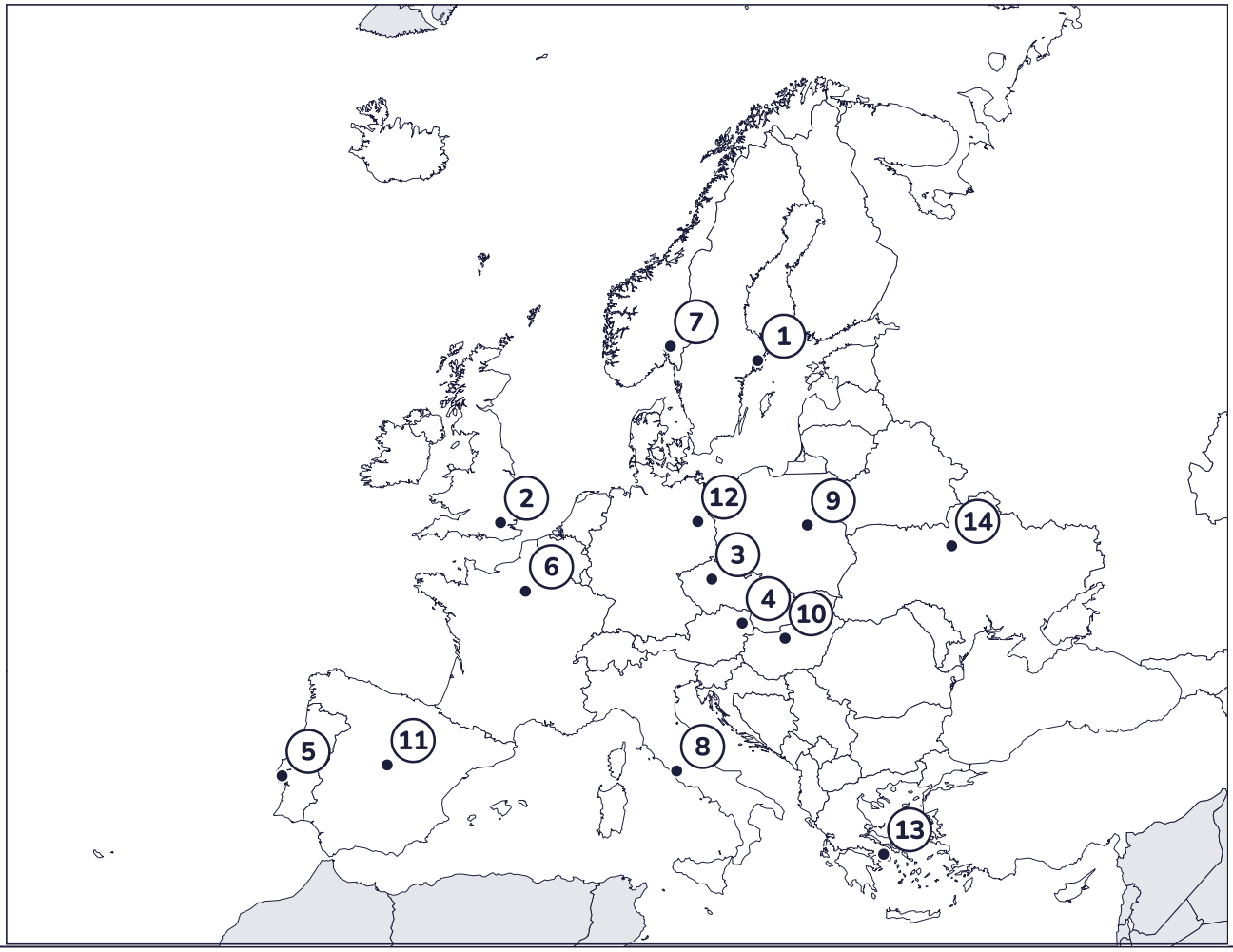

1 **Wpisz nazwy stolic przy numerach. Pomogą Ci nazwy państw w nawiasach.**

1. _____ (Szwecja)
2. _____ (Wielka Brytania)
3. _____ (Czechy)
4. _____ (Austria)
5. _____ (Portugalia)
6. _____ (Francja)
7. _____ (Norwegia)
8. _____ (Włochy)
9. _____ (Polska)
10. _____ (Węgry)
11. _____ (Hiszpania)
12. _____ (Niemcy)
13. _____ (Grecja)
14. _____ (Ukraina)

MISJA 6 · STOLICE ŚWIATA

Pułapki: największe miasto to nie zawsze stolica

Poziom 3 · Trudny kl. 5–6 ●●●○

🎬 Film do tej karty: *wkrótce*

1 **Zakreśl stolicę państwa. Uważaj – w każdym rzędzie jest też bardzo duże lub znane miasto, które stolicą nie jest!**

Państwo	a	b	c
Australia	Sydney	Canberra	Melbourne
Kanada	Toronto	Vancouver	Ottawa
Stany Zjednoczone	Waszyngton	Nowy Jork	Los Angeles
Brazylia	Rio de Janeiro	São Paulo	Brasília
Turcja	Stambuł	Ankara	Izmir
Nigeria	Lagos	Abudża	Kano
Indie	Mumbaj	Kalkuta	Nowe Delhi
Szwajcaria	Zurych	Berno	Genewa
Maroko	Casablanca	Marrakesz	Rabat
Nowa Zelandia	Auckland	Wellington	Christchurch

2 **Na jakim kontynencie leży stolica? Wpisz.**

Kair – _____ Lima – _____

Tokio – _____ Ottawa – _____

Canberra – _____ Nairobi – _____

MISJA 6 · STOLICE ŚWIATA

Rzeki, flagi i zagadki stolic

Poziom 4 · Super trudny kl. 7–8 ●●●●

Film do tej karty: *wkrótce*

1 Nad jaką rzeką leży stolica? Wpisz literę rzeki (jedna rzeka pasuje do dwóch stolic).

a) Dunaj | b) Nil | c) Wisła | d) Sekwana | e) Tamiza | f) Tyber | g) Wełtawa | h) Szprewa | i) Dniepr

☐ Warszawa	☐ Praga	☐ Paryż	☐ Londyn	☐ Rzym
☐ Berlin	☐ Kair	☐ Kijów	☐ Budapeszt	☐ Wiedeń

2 Rozpoznaj flagi. Wpisz nazwę państwa pod każdą flagą.


1. _____


2. _____


3. _____


4. _____


5. _____


6. _____


7. _____


8. _____


9. _____


10. _____

3 Zagadki.

1. Flagi 9 i 10 wyglądają prawie tak samo. Czym się różnią?

   _____

2. Która stolica leży najdalej na północ: Oslo, Helsinki czy Reykjavík?

   _____

3. Holandia: stolicą jest Amsterdam, ale rząd i parlament pracują w innym mieście. W jakim? _____

KLUCZ ODPOWIEDZI

Misja 6 – Stolice świata

Poziom 1

1. Niemcy – Berlin, Czechy – Praga, Słowacja – Bratysława, Ukraina – Kijów, Białoruś – Mińsk, Litwa – Wilno, Rosja – Moskwa.
2. Kolorowanie według opisów.

Poziom 2

1 – Sztokholm, 2 – Londyn, 3 – Praga, 4 – Wiedeń, 5 – Lizbona, 6 – Paryż, 7 – Oslo, 8 – Rzym, 9 – Warszawa, 10 – Budapeszt, 11 – Madryt, 12 – Berlin, 13 – Ateny, 14 – Kijów.

Poziom 3

1. Australia – Canberra, Kanada – Ottawa, Stany Zjednoczone – Waszyngton, Brazylia – Brasília, Turcja – Ankara, Nigeria – Abudża, Indie – Nowe Delhi, Szwajcaria – Berno, Maroko – Rabat, Nowa Zelandia – Wellington.
2. Kair – Afryka, Lima – Ameryka Południowa, Tokio – Azja, Ottawa – Ameryka Północna, Canberra – Australia, Nairobi – Afryka.

Poziom 4

1. Warszawa – c, Praga – g, Paryż – d, Londyn – e, Rzym – f, Berlin – h, Kair – b, Kijów – i, Budapeszt – a, Wiedeń – a.
2. 1 Francja, 2 Włochy, 3 Irlandia, 4 Belgia, 5 Austria, 6 Węgry, 7 Holandia, 8 Japonia, 9 Monako, 10 Indonezja.
3. Flaga Monako jest krótsza (proporcje 4:5), a flaga Indonezji dłuższa (2:3) – kolory są takie same. Reykjavík (ok. 64°N). W Hadze.

Nazwy państw i stolic według „Urzędowego wykazu polskich nazw państw i terytoriów niesamodzielnych” Komisji Standaryzacji Nazw Geograficznych (wyd. VIII, 2025). Flagi narysowane przez nas według urzędowych proporcji i kolorów.