KRZYŻÓWKI GEOGRAFICZNE

Kontynenty i oceany

kl. 4–6

Imię i nazwisko: _____ Data: _____

1 Krzyżówka „Kontynenty i oceany”. Hasło czytaj w żółtych kratkach.

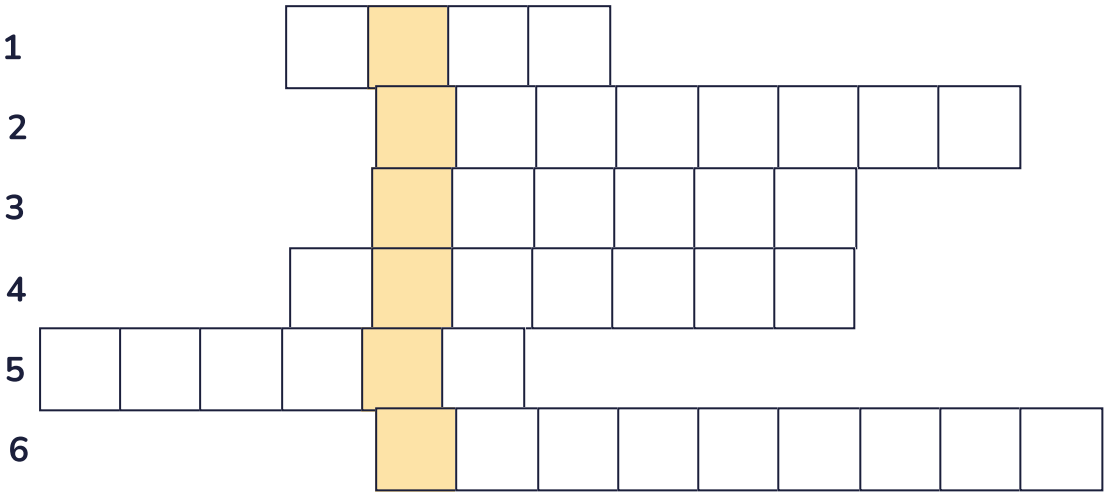

1. Największy kontynent na Ziemi. (4 litery)
2. Ocean między Afryką a Australią. (8 liter)
3. Kontynent, na którym leży Polska. (6 liter)
4. Północna i Południowa – dwa kontynenty o tej nazwie. (7 liter)
5. Linia dzieląca Ziemię na półkulę północną i południową. (6 liter)
6. Najmniejszy kontynent – mieszkają tam kangury. (9 liter)

Hasło: ☐☐☐☐☐☐

2 Rozszyfruj nazwy oceanów – litery są pomieszane.

NKPSYOJO → _____

TKANALYCTI → _____

KIDJIYNS → _____

YKZANRYCT → _____

YWUŁPIODNO → _____

Polska

kl. 4–6

Imię i nazwisko: _____ Data: _____

3 Krzyżówka „Polska”. Hasło to nazwa najdłuższej rzeki Polski.

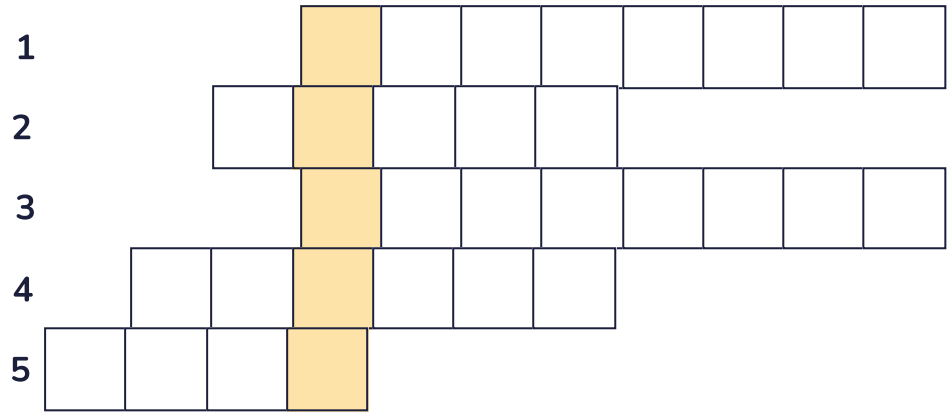

1. Stolica Polski. (8 liter)
2. Sąsiad Polski na północnym wschodzie. (5 liter)
3. Sąsiad Polski na południu, ze stolicą w Bratysławie. (8 liter)
4. Morze, nad którym leży Polska. (6 liter)
5. Rzeka, która na części długości tworzy granicę z Niemcami. (4 litery)

Hasło: ☐ ☐ ☐ ☐ ☐

4 Rozszyfruj nazwy państw, które graniczą z Polską.

YNIECM → _____

EYZCCH → _____

KURNAIA → _____

ŁIBUORAŚ → _____

ORJAS → _____

ATWIL → _____

Mapa

kl. 4–6

Imię i nazwisko: _____ Data: _____

5 Krzyżówka „Mapa”. Hasło mówi, ile razy obraz na mapie jest mniejszy od rzeczywistości.

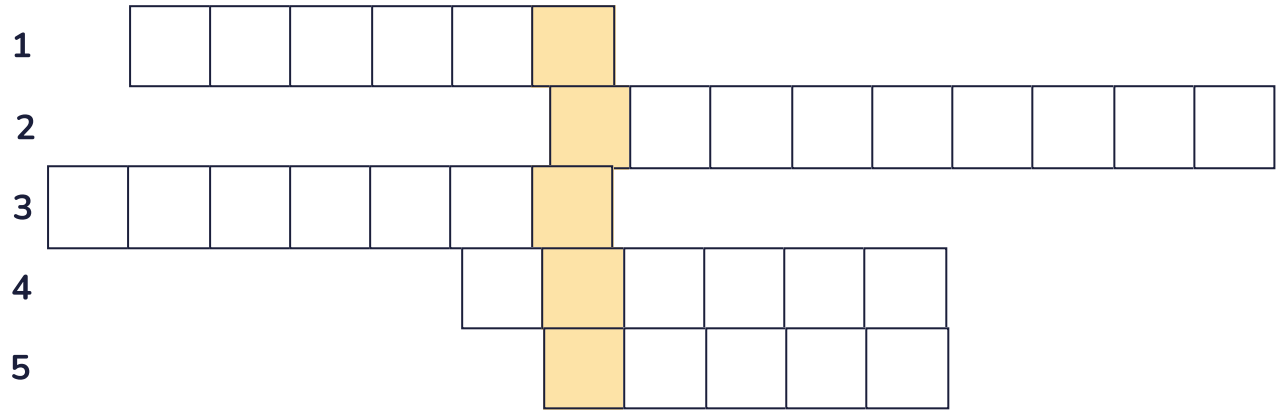

1. Przyrząd z igłą magnetyczną, który wskazuje północ. (6 liter)
2. Osoba, która tworzy mapy. (9 liter)
3. Objaśnienie znaków umieszczonych na mapie. (7 liter)
4. Model kuli ziemskiej. (6 liter)
5. Książka ze zbiorem map. (5 liter)

Hasło: ☐☐☐☐☐

6 Połącz pojęcie z wyjaśnieniem – wpisz literę.

☐ **skala**
☐ **legenda**
☐ **róża wiatrów**
☐ **siatka kartograficzna**
☐ **poziomica**

A – pokazuje kierunki świata
B – linia łącząca punkty o tej samej wysokości
C – informuje, ile razy odległości na mapie są mniejsze niż w terenie
D – równoleżniki i południki narysowane na mapie
E – objaśnia znaki i kolory użyte na mapie

WYKREŚLANKA

Stolice Europy

kl. 4–6

Imię i nazwisko: _____ Data: _____

7 **Wykreślanka: znajdź 10 stolic europejskich państw (poziomo → i pionowo ↓).**

D	Y	C	R	Z	Y	M	N	A	Y
Y	P	M	H	A	S	O	F	I	A
A	C	E	P	T	O	S	L	O	C
O	M	B	R	E	N	S	I	S	A
M	A	E	A	N	W	O	K	F	E
A	C	R	G	Y	Z	B	Y	D	Y
D	Z	N	A	B	E	R	L	I	N
R	E	O	N	W	Z	C	U	R	N
Y	U	D	H	H	R	Y	G	A	N
T	L	O	Y	D	U	B	L	I	N

PRAGA · BERLIN · MADRYT · RZYM · OSLO · ATENY · SOFIA · RYGA · DUBLIN · BERNO

8 **Wpisz stolicę każdego państwa – skorzystaj z wykreślanki.**

Włochy – _____

Łotwa – _____

Czechy – _____

Szwajcaria – _____

Grecja – _____

Niemcy – _____

Irlandia – _____

Hiszpania – _____

Bułgaria – _____

Norwegia – _____

Odpowiedzi

kl. 4–6

Zadanie 1 – hasło ZIEMIA

1 AZJA
2 INDYJSKI
3 EUROPA
4 AMERYKA
5 RÓWNIK
6 AUSTRALIA

Zadanie 3 – hasło WISŁA

1 WARSZAWA
2 LITWA
3 SŁOWACJA
4 BAŁTYK
5 ODRA

Zadanie 5 – hasło SKALA

1 KOMPAS
2 KARTOGRAF
3 LEGENDA
4 GLOBUS
5 ATLAS

Zadanie 7

D	Y	C	R	Z	Y	M	N	A	Y
Y	P	M	H	A	S	O	F	I	A
A	C	E	P	T	O	S	L	O	C
O	M	B	R	E	N	S	I	S	A
M	A	E	A	N	W	O	K	F	E
A	C	R	G	Y	Z	B	Y	D	Y
D	Z	N	A	B	E	R	L	I	N
R	E	O	N	W	Z	C	U	R	N
Y	U	D	H	H	R	Y	G	A	N
T	L	O	Y	D	U	B	L	I	N

Zadanie 2

SPOKOJNY, ATLANTYCKI, INDYJSKI, ARKTYCZNY, POŁUDNIOWY

Zadanie 4

NIEMCY, CZECHY, UKRAINA, BIAŁORUŚ, ROSJA, LITWA

Zadanie 6

skala – C · legenda – E · róża wiatrów – A · siatka kartograficzna – D · poziomica – B

Zadanie 8

Włochy – Rzym · Łotwa – Ryga · Czechy – Praga · Szwajcaria – Berno · Grecja – Ateny · Niemcy – Berlin · Irlandia – Dublin · Hiszpania – Madryt · Bułgaria – Sofia · Norwegia – Oslo

Źródło nazw państw i stolic: Komisja Standaryzacji Nazw Geograficznych, „Urzędowy wykaz polskich nazw państw i terytoriów niesamodzielnych”.