Piramidy liczbowe

Zestaw 1 · klasy 1–3

Piramidy z cegieł: każda to suma dwóch pod nią. Trzy i cztery piętra, czasem trzeba odejmować.

Piramidy liczbowe

Imię: _____ Data: _____ Wynik: ____ / 8

1 Każda cegła to suma dwóch cegieł pod nią. Uzupełnij puste cegły. (W kluczu: od góry, od lewej.)

a)

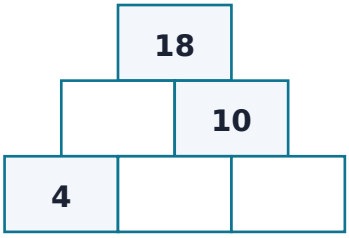

b)

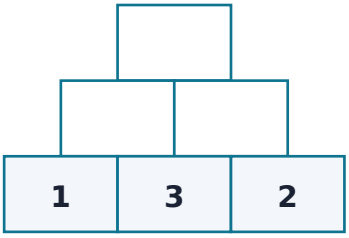

c)

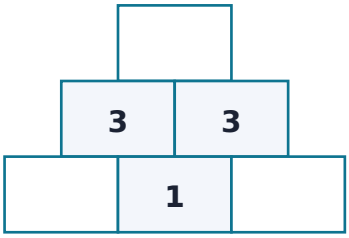

d)

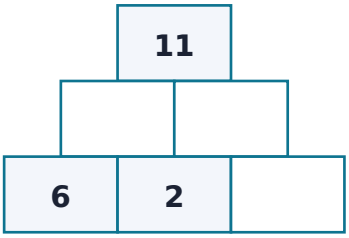

2 Uzupełnij piramidy. Czasem trzeba odejmować!

a)

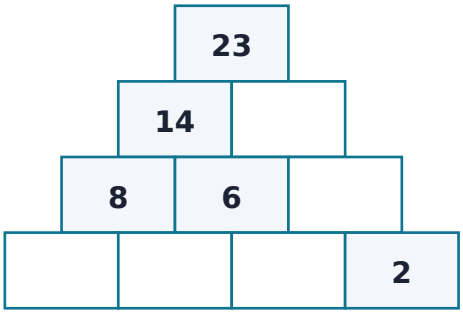

b)

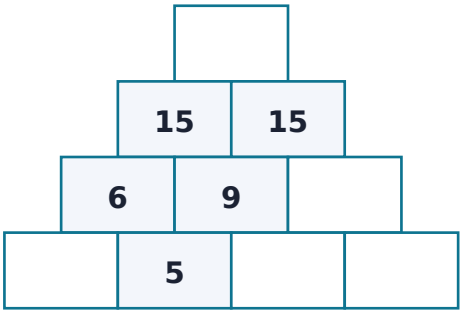

c)

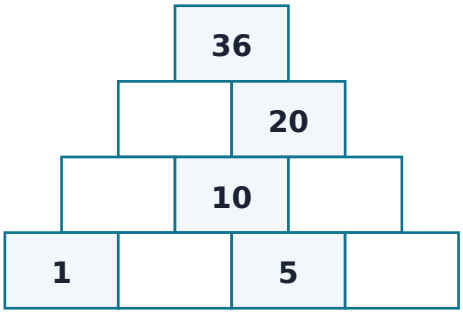

d)

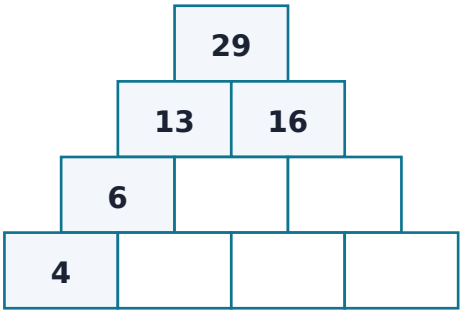

Klucz odpowiedzi

1. a) 8, 4, 6 b) 9, 4, 5 c) 6, 2, 2 d) 8, 3, 1

2. a) 9, 3, 3, 5, 1 b) 30, 6, 1, 4, 2 c) 16, 6, 10, 5, 5 d) 7, 9, 2, 5, 4