Piramidy liczbowe

Zestaw 2 · klasy 1–3

Piramidy z cegieł: każda to suma dwóch pod nią. Trzy i cztery piętra, czasem trzeba odejmować.

Piramidy liczbowe

Imię: _____ Data: _____ Wynik: ____ / 8

1 Każda cegła to suma dwóch cegieł pod nią. Uzupełnij puste cegły. (W kluczu: od góry, od lewej.)

a)

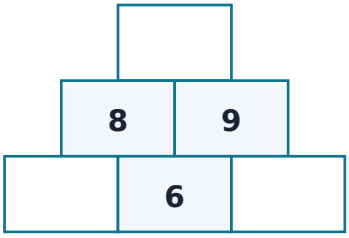

b)

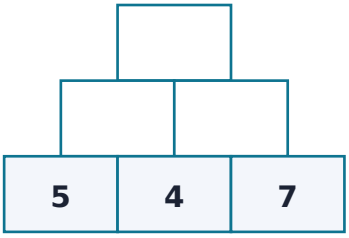

c)

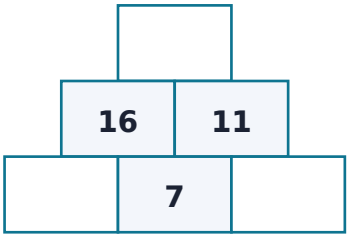

d)

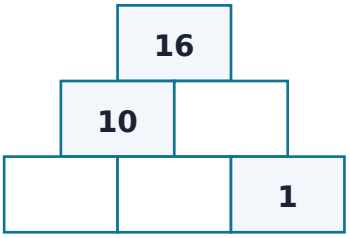

2 Uzupełnij piramidy. Czasem trzeba odejmować!

a)

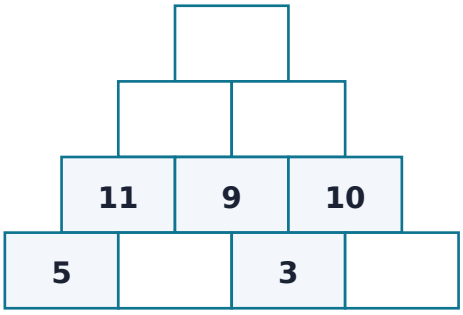

b)

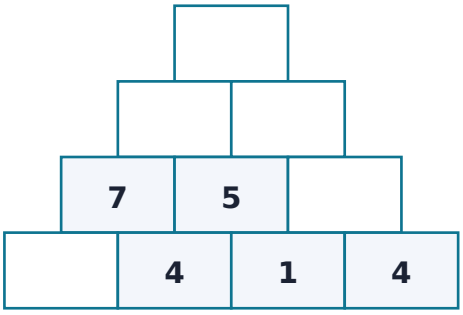

c)

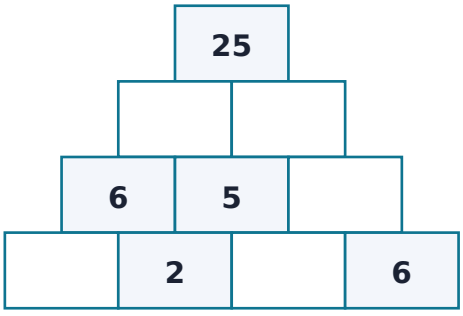

d)

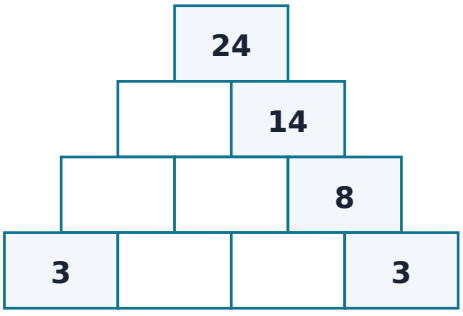

Klucz odpowiedzi

Piramidy liczbowe, zestaw 2

1. a) 17, 2, 3 b) 20, 9, 11 c) 27, 9, 4 d) 6, 5, 5

2. a) 39, 20, 19, 6, 7 b) 22, 12, 10, 5, 3 c) 11, 14, 9, 4, 3 d) 10, 4, 6, 1, 5