Piramidy liczbowe

Zestaw 3 · klasy 1–3

Piramidy z cegieł: każda to suma dwóch pod nią. Trzy i cztery piętra, czasem trzeba odejmować.

Piramidy liczbowe

Imię: _____ Data: _____ Wynik: ____ / 8

1 Każda cegła to suma dwóch cegieł pod nią. Uzupełnij puste cegły. (W kluczu: od góry, od lewej.)

a)

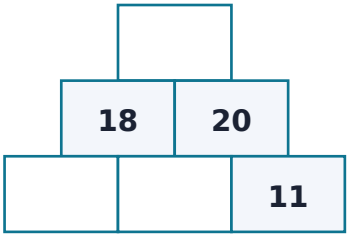

b)

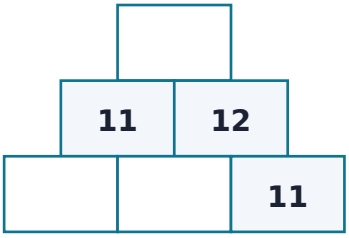

c)

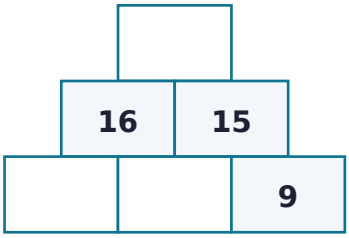

d)

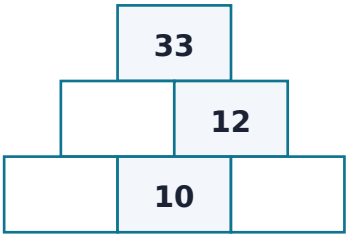

2 Uzupełnij piramidy. Czasem trzeba odejmować!

a)

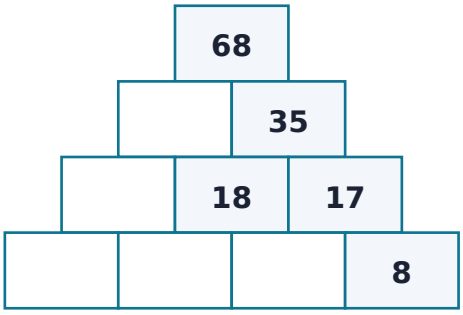

b)

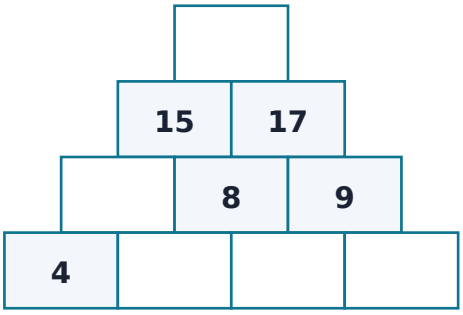

c)

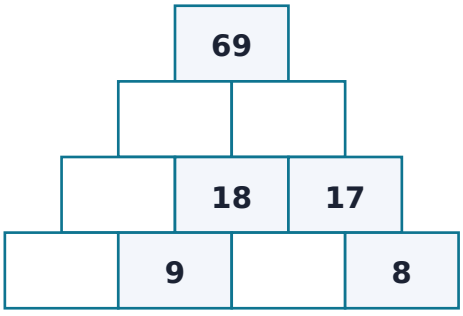

d)

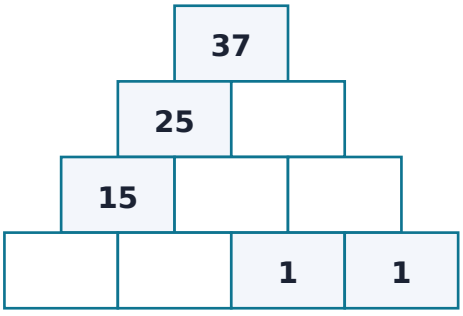

Klucz odpowiedzi

Piramidy liczbowe, zestaw 3

1. a) 38, 9, 9 b) 23, 10, 1 c) 31, 10, 6 d) 21, 11, 2

2. a) 33, 15, 6, 9, 9 b) 32, 7, 3, 5, 4 c) 34, 35, 16, 7, 9 d) 12, 10, 2, 6, 9