MAPA KONTUROWA

# Mapa konturowa świata

kl. 3–8

Mapa konturowa świata bez podpisów – do ćwiczeń, sprawdzianów i własnych projektów.



**Wersja z siatką kartograficzną** – równik oraz równoleżniki i południki co 30°.

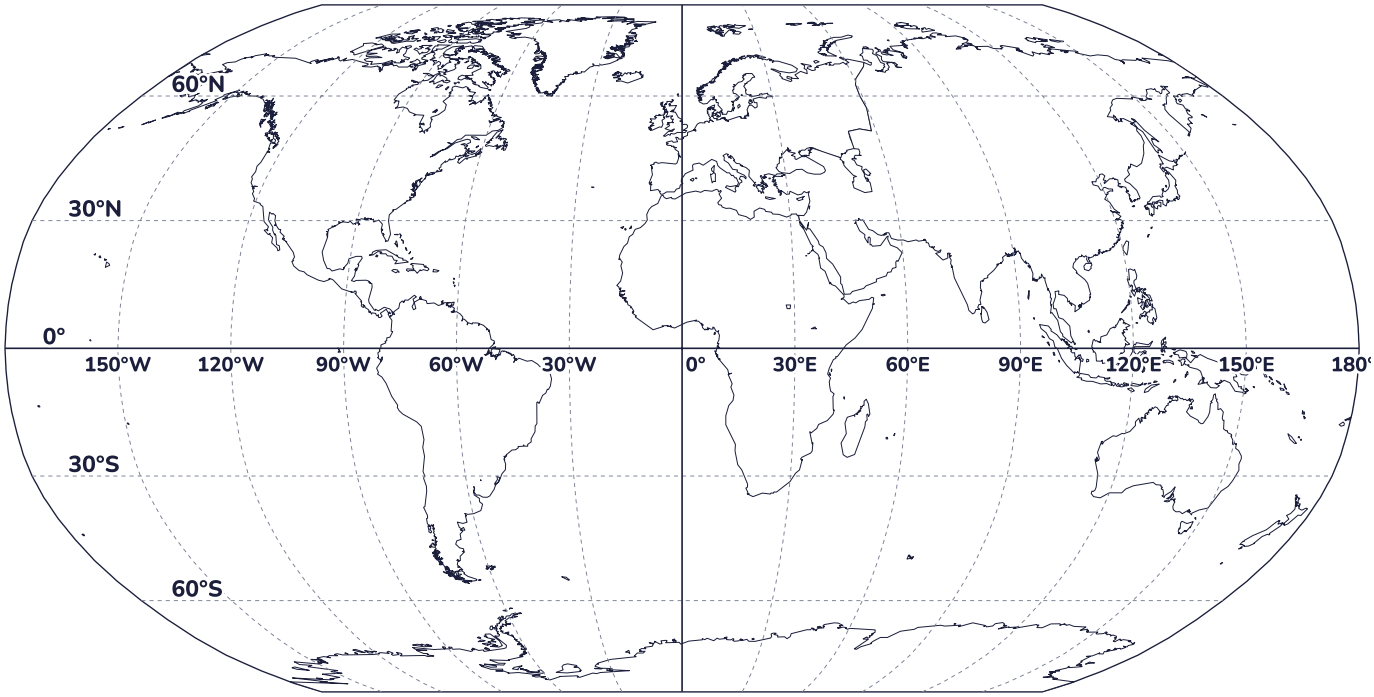


Mapa narysowana przez glowkowniadruk.pl z danych Natural Earth (domena publiczna). Do użytku domowego i szkolnego.

# Kontynenty i oceany

kl. 3–8

Imię i nazwisko: _____ Data: _____

## 1 Wpisz w tabelę nazwy kontynentów (1–7) i oceanów (A–E) zaznaczonych na mapie.

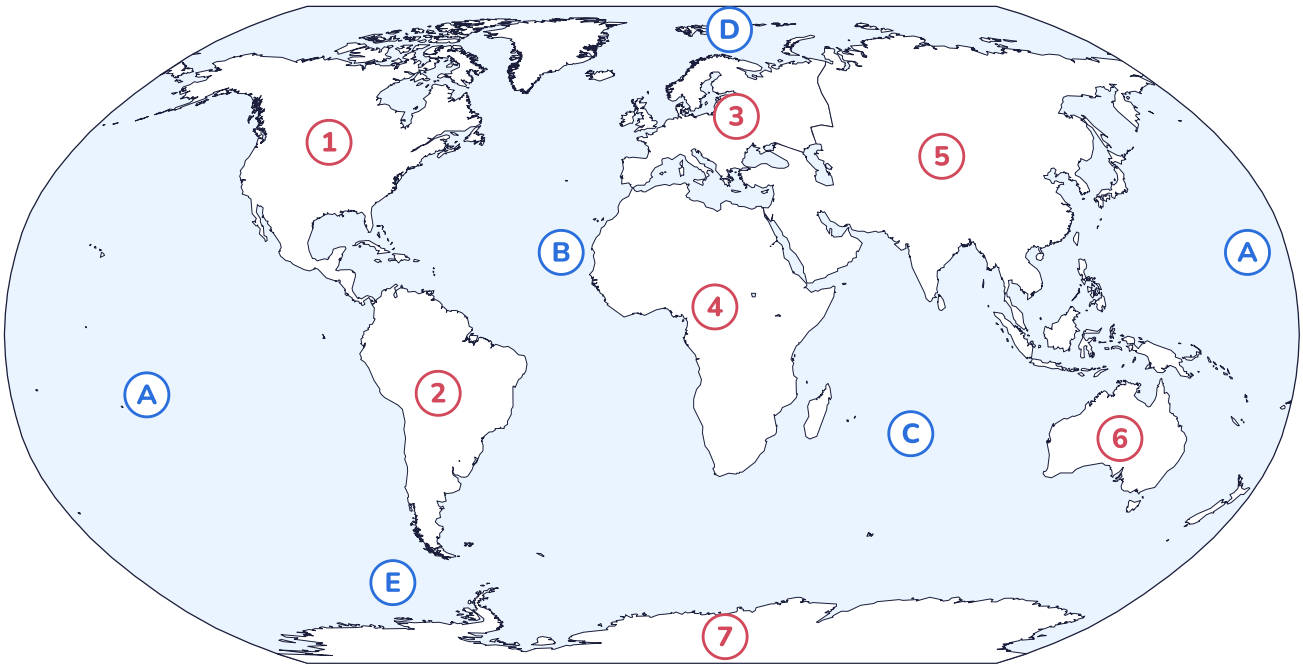


| | | | |
|---|---|---|---|
| 1 | _____ | A | _____ |
| 2 | _____ | B | _____ |
| 3 | _____ | C | _____ |
| 4 | _____ | D | _____ |
| 5 | _____ | E | _____ |
| 6 | _____ | | |
| 7 | _____ | | |

## 2 Ułóż kontynenty od największego (1) do najmniejszego (7) – wpisz numery z mapy.

| 1. | 2. | 3. | 4. | 5. | 6. | 7. |
|---|---|---|---|---|---|---|
| | | | | | | |

największy → najmniejszy

# Kolorowanie i pytania

kl. 3–8

Imię i nazwisko: _____ Data: _____

## 3 Pokoloruj kontynenty według legendy. Ocean pokoloruj na jasnoniebiesko.

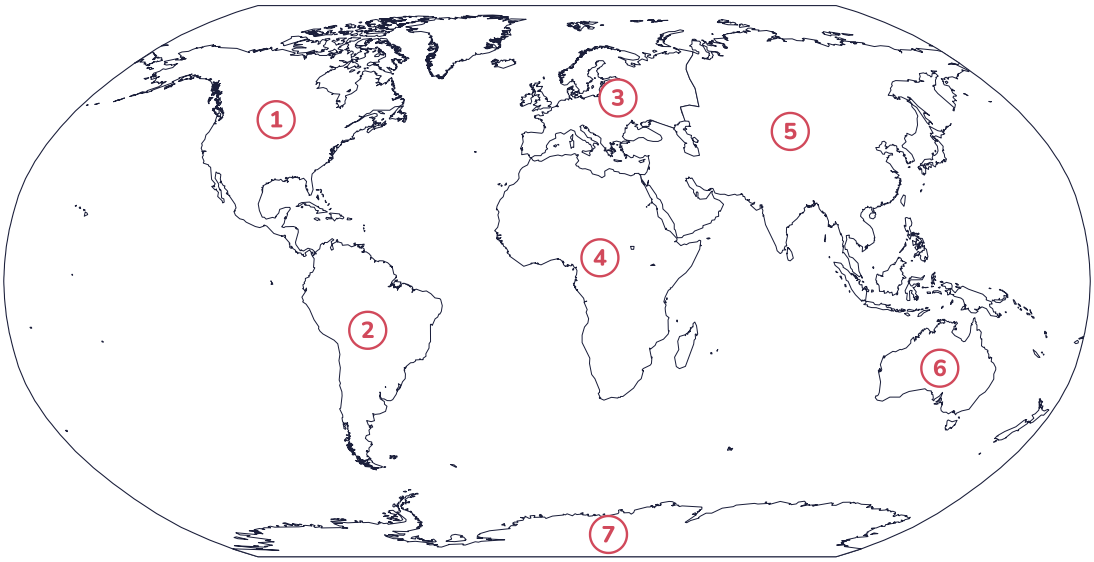


- 1 Ameryka Północna
- 2 Ameryka Południowa
- 3 Europa
- 4 Afryka
- 5 Azja
- 6 Australia
- 7 Antarktyda

## 4 Odpowiedz na pytania – skorzystaj z mapy z siatką (strona 1).

**a)** Przez które kontynenty przechodzi równik?

_____

**b)** Które dwa kontynenty leżą w całości na półkuli południowej?

_____

**c)** Które dwa kontynenty leżą w całości na półkuli północnej?

_____

**d)** Jaki ocean otacza biegun północny?

_____

**e)** Jaki ocean otacza Antarktydę?

_____

**f)** Który ocean jest największy?

_____

# Prawda czy fałsz? Moja mapa

kl. 3–8

Imię i nazwisko: _____ Data: _____

## 5 Prawda (P) czy fałsz (F)? Zakreśl.

| | | | |
|---|---|---|---|
| 1. | Na Ziemi jest 7 kontynentów i 5 oceanów. | P ☐ | F ☐ |
| 2. | Polska leży w Europie. | P ☐ | F ☐ |
| 3. | Australia jest największym kontynentem. | P ☐ | F ☐ |
| 4. | Równik dzieli Ziemię na półkulę północną i południową. | P ☐ | F ☐ |
| 5. | Ocean Atlantycki leży między Europą i Afryką a obiema Amerykami. | P ☐ | F ☐ |
| 6. | Antarktyda leży wokół bieguna północnego. | P ☐ | F ☐ |
| 7. | Azja jest największym kontynentem. | P ☐ | F ☐ |
| 8. | Ocean Indyjski oblewa brzegi Ameryki Północnej. | P ☐ | F ☐ |

## 6 Mapa do własnego projektu: zaznacz miejsca, które chcesz odwiedzić.

Narysuj na mapie gwiazdkę w Polsce, a potem 3 kropki w miejscach, które chciałbyś zobaczyć. Podpisz je w legendzie.

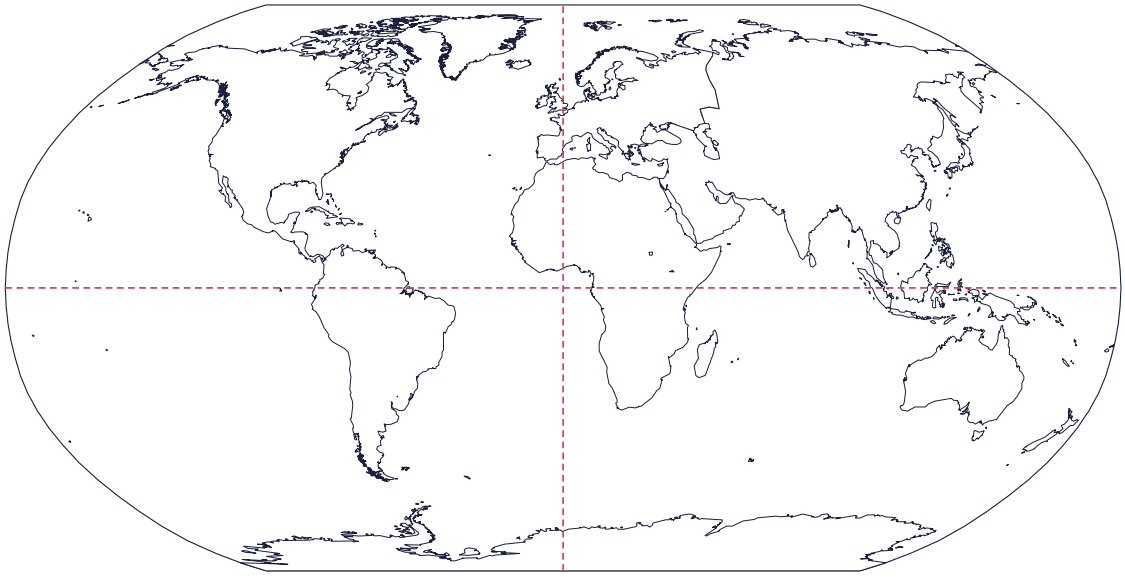

★ Polska 1 _____ 2 _____ 3 _____

DLA NAUCZYCIELA I RODZICA

# Odpowiedzi

kl. 3–8

## Zadanie 1

1 – Ameryka Północna · 2 – Ameryka Południowa · 3 – Europa · 4 – Afryka · 5 – Azja · 6 – Australia · 7 – Antarktyda

A – Ocean Spokojny · B – Ocean Atlantycki · C – Ocean Indyjski · D – Ocean Arktyczny · E – Ocean Południowy

## Zadanie 2

5 (Azja) → 4 (Afryka) → 1 (Ameryka Północna) → 2 (Ameryka Południowa) → 7 (Antarktyda) → 3 (Europa) → 6 (Australia)

## Zadanie 3

Kolorowanie według legendy.

## Zadanie 4

a) Afryka, Ameryka Południowa, Azja (wyspy Indonezji)

b) Australia i Antarktyda

c) Europa i Ameryka Północna

d) Ocean Arktyczny

e) Ocean Południowy

f) Ocean Spokojny

## Zadanie 5

1 – P · 2 – P · 3 – F · 4 – P · 5 – P · 6 – F · 7 – P · 8 – F

## Zadanie 6

Odpowiedź własna.

### Źródła

Mapy: dane Natural Earth (domena publiczna). Kolejność kontynentów według powierzchni: Encyclopaedia Britannica, hasło „continent”. Pięć oceanów i Ocean Południowy: NOAA, „How many oceans are there?”.