Szyfr gwiazdy: odgadnij dar

klasy 1–3

Imię i nazwisko: _____ Data: _____

Mędrcy przynieśli Dzieciątku trzy dary. Jeden z nich ukrył się w szyfrze. Policz, znajdź wynik w tabeli i wpisz literę.

6	7	10	11	12	14	15	16	18	19	20
Z	S	A	D	I	E	M	Ł	O	R	K

1. 15 + 5 = ☐ litera: ☐

2. 4 + 6 = ☐ litera: ☐

3. 13 − 2 = ☐ litera: ☐

4. 2 + 4 = ☐ litera: ☐

5. 5 + 7 = ☐ litera: ☐

6. 19 − 8 = ☐ litera: ☐

7. 18 − 2 = ☐ litera: ☐

8. 7 + 11 = ☐ litera: ☐

Hasło (litery z działań 1–8):

1	2	3	4	5	6	7	8

Jakie były pozostałe dwa dary? _____ i _____

★ **Wielbłąd stawia kroki co 2. Wpisz brakujące liczby na drodze do Betlejem.**



2	4		8			14			20



Zadania tekstowe z orszaku

klasy 1–3

Imię i nazwisko: _____ Data: _____

1 W orszaku szło 3 królów. Każda korona miała 5 klejnotów. Ile klejnotów miały wszystkie korony razem?

Odpowiedź: _____

2 Wielbłąd ma 4 nogi. Ile nóg mają razem 3 wielbłądy?

Odpowiedź: _____

3 Dzieci zrobiły 18 papierowych koron. 7 koron dały klasie 1b. Ile koron zostało?

Odpowiedź: _____

4 Ola wycięła 9 gwiazdek, a Kuba o 4 więcej. Ile gwiazdek wyciął Kuba? Ile gwiazdek mają razem?

Odpowiedź: _____

5 Orszak wyruszył o godzinie 11:00 i szedł 2 godziny. O której godzinie dotarł na miejsce?

Odpowiedź: _____

6 Na orszak przyszło 20 dzieci. Ustawiły się parami. Ile było par?

Odpowiedź: _____

7 Pasek korony ma 50 cm, a głowa Ani ma obwód 52 cm. O ile centymetrów pasek jest za krótki?

Odpowiedź: _____

8 Trzej królowie mieli razem 12 prezentów, każdy tyle samo. Ile prezentów miał każdy król?

Odpowiedź: _____

Kalendarz: styczeń 2027

klasy 1–3

Imię i nazwisko: _____ Data: _____

STYCZEŃ 2027						
pn	**wt**	**śr**	**cz**	**pt**	**so**	**nd**
				1	2	**3**
4	5	**6**	7	8	9	**10**
11	12	13	14	15	16	**17**
18	19	20	21	22	23	**24**
25	26	27	28	29	30	**31**

1. Jaki dzień tygodnia wypada 6 stycznia 2027 – w święto Trzech Króli?

_____

2. Ile dni ma styczeń?

_____

3. Ile śród jest w styczniu 2027? Wypisz ich daty.

_____

4. Jaka data będzie tydzień po święcie Trzech Króli?

_____

5. Ile dni mija od Nowego Roku (1 stycznia) do Trzech Króli (6 stycznia)?

_____

6. Dzień Babci jest 21 stycznia. Jaki to dzień tygodnia?

_____

7. Ile niedziel jest w styczniu 2027?

_____

8. Zaznacz w kalendarzu na zielono swoje urodziny albo imieniny, jeśli są w styczniu.

_____

Piramidy i królewskie zagadki

klasy 1–3

Imię i nazwisko: _____ Data: _____

1 **Królewskie piramidy. Każda liczba to suma dwóch liczb pod nią. Uzupełnij puste pola.**

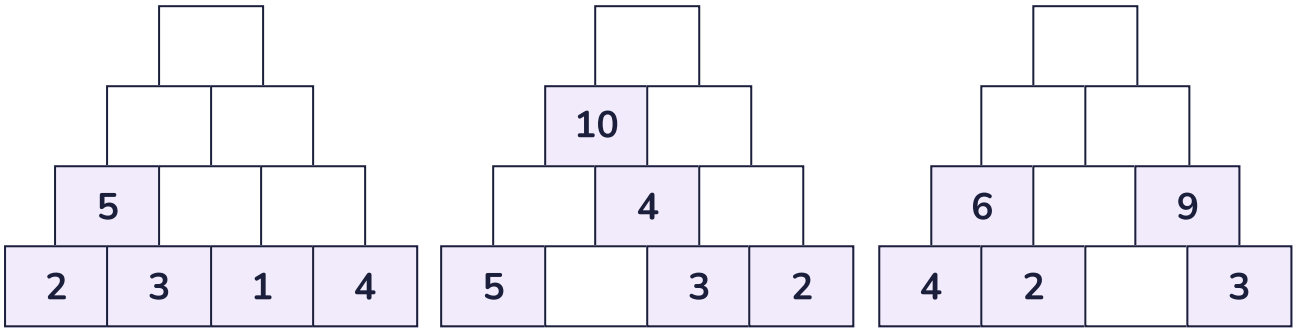

2 **Królewskie zagadki. Te same obrazki to te same liczby. Rozwiązuj po kolei!**

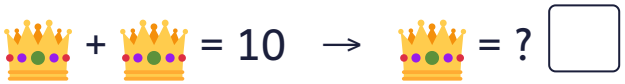







3 **Ułóż własne zadanie o orszaku Trzech Króli i daj je do rozwiązania koledze.**

Odpowiedzi

klasy 1–3

Szyfr

1) 15 + 5 = 20 (K) · 2) 4 + 6 = 10 (A) · 3) 13 − 2 = 11 (D) · 4) 2 + 4 = 6 (Z) · 5) 5 + 7 = 12 (I) · 6) 19 − 8 = 11 (D) · 7) 18 − 2 = 16 (Ł) · 8) 7 + 11 = 18 (O) → hasło **KADZIDŁO**. Pozostałe dary: złoto i mirra. Droga wielbłąda: 2, 4, 6, 8, 10, 12, 14, 16, 18, 20.

Zadania tekstowe

1) 3 · 5 = 15 klejnotów · 2) 3 · 4 = 12 nóg · 3) 18 − 7 = 11 koron · 4) 9 + 4 = 13; 9 + 13 = 22 gwiazdki · 5) o 13:00 · 6) 20 : 2 = 10 par · 7) 52 − 50 = 2 cm · 8) 12 : 3 = 4 prezenty

Kalendarz

1) środa · 2) 31 · 3) 4: 6, 13, 20, 27 stycznia · 4) 13 stycznia · 5) 5 dni · 6) czwartek · 7) 5: 3, 10, 17, 24, 31 stycznia · 8) –

Piramidy i zagadki

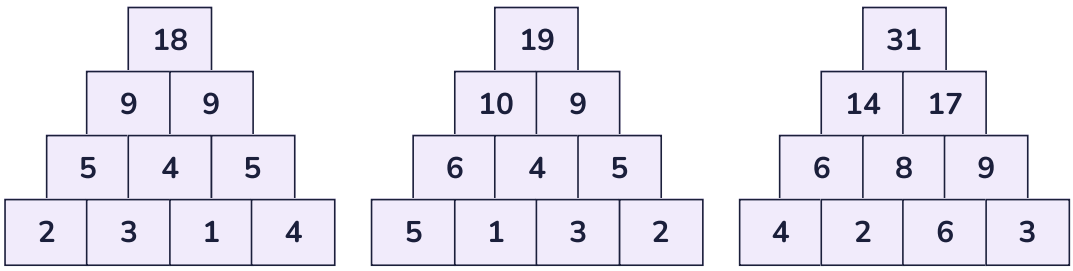

korona = 5 · gwiazda = 3 · wielbłąd = 6 · razem = 14

Obrazki: Twemoji © Twitter, Inc. i współtwórcy, licencja CC BY 4.0. Materiał: glowkowniadruk.pl – do użytku domowego i szkolnego.