Zasady w pigułce

Ściąga ●○○

1. **Najważniejsze są polecenia osoby kierującej ruchem** (np. policjanta), potem sygnały świetlne, a dopiero potem znaki (art. 5 ust. 2 PoRD).
2. **Sygnalizacja świetlna** ma pierwszeństwo przed znakami regulującymi pierwszeństwo, np. A-7 czy D-1 (art. 5 ust. 3).
3. **Znaki:** jadący drogą podporządkowaną (A-7 lub B-20) ustępuje jadącym drogą z pierwszeństwem – z prawej i z lewej (§ 1 rozporządzenia o znakach).
4. **Reguła prawej ręki:** na skrzyżowaniu równorzędnym ustępujesz pojazdowi z prawej strony (art. 25 ust. 1).
5. **Skręt w lewo:** ustępujesz też jadącym z przeciwka prosto lub w prawo (art. 25 ust. 1).
6. **Tramwaj** na skrzyżowaniu równorzędnym ma pierwszeństwo bez względu na stronę (art. 25 ust. 2).
7. **Pieszy:** skręcając, ustępujesz pieszemu na jezdni, w którą wjeżdżasz (art. 26 ust. 2). Pieszy na przejściu i wchodzący na nie ma pierwszeństwo (art. 13 ust. 1a).
8. **Rowerzysta:** skręcając, ustępujesz rowerzyście jadącemu prosto drogą dla rowerów, którą przecinasz (art. 27 ust. 1a).
9. **Włączanie się do ruchu** (z parkingu, posesji, strefy zamieszkania) – ustępujesz wszystkim (art. 17).
10. **Nie wjeżdżaj na skrzyżowanie**, jeśli nie ma miejsca, by je opuścić – nawet przy zielonym świetle (art. 25 ust. 4).

Jak czytać schematy: samochód **A** (ciemny) to Ty. Przerywana strzałka pokazuje, dokąd jedzie pojazd. Znaki stoją po prawej stronie wlotu, którego dotyczą.

PIERWSZEŃSTWO · POZIOM 1

Kto jedzie pierwszy?

Łatwy ●○○

Skrzyżowania bez znaków: prawa ręka i skręt w lewo. Wpisz litery pojazdów w kolejności przejazdu. Jeśli mogą jechać razem – napisz „A i B”.

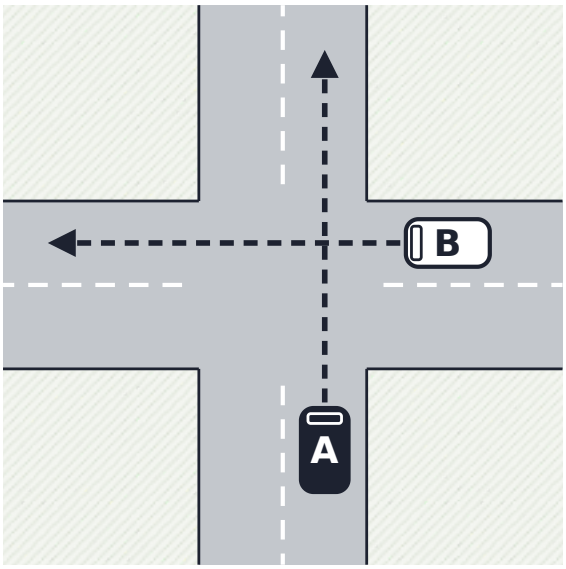

1. Kolejność przejazdu: _____

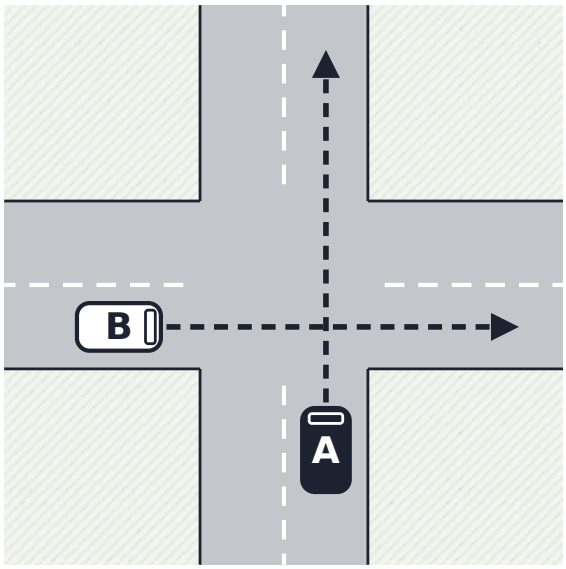

2. Kolejność przejazdu: _____

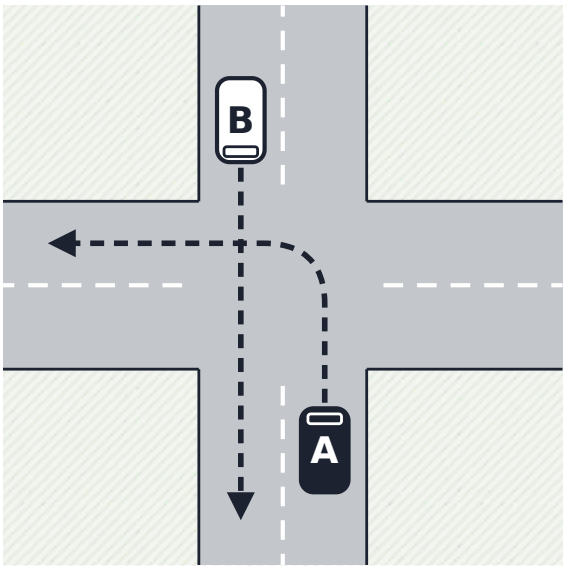

3. Kolejność przejazdu: _____

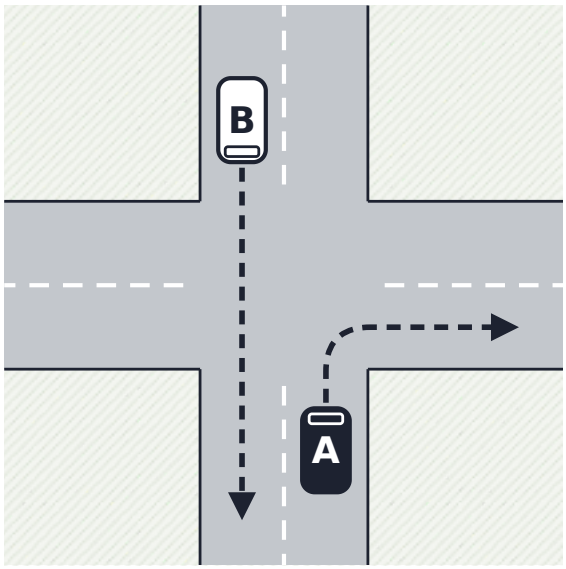

4. Kolejność przejazdu: _____

PIERWSZEŃSTWO · POZIOM 2

Kto jedzie pierwszy?

Średni ●●○

Skrzyżowania ze znakami A-7, B-20 i D-1. Wpisz litery pojazdów w kolejności przejazdu. Jeśli mogą jechać razem – napisz „A i B”.

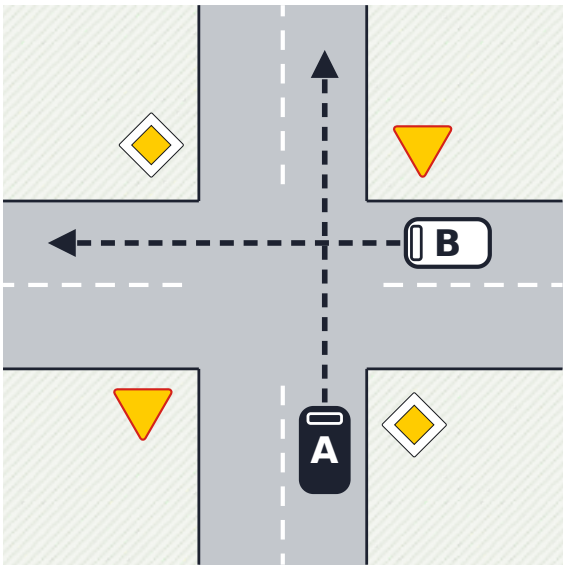

5. Kolejność przejazdu: _____

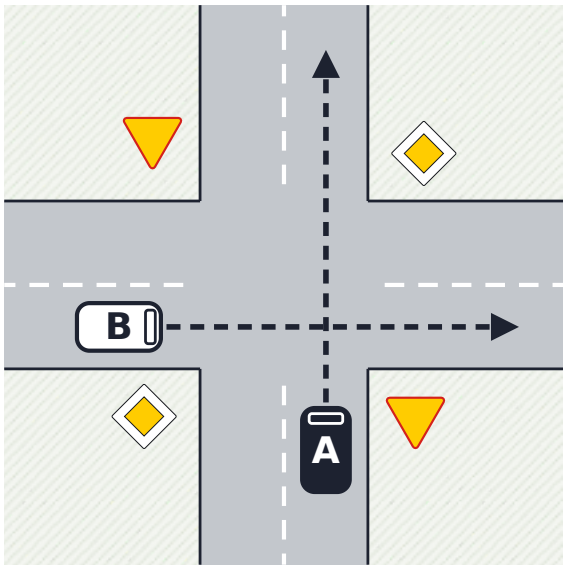

6. Kolejność przejazdu: _____

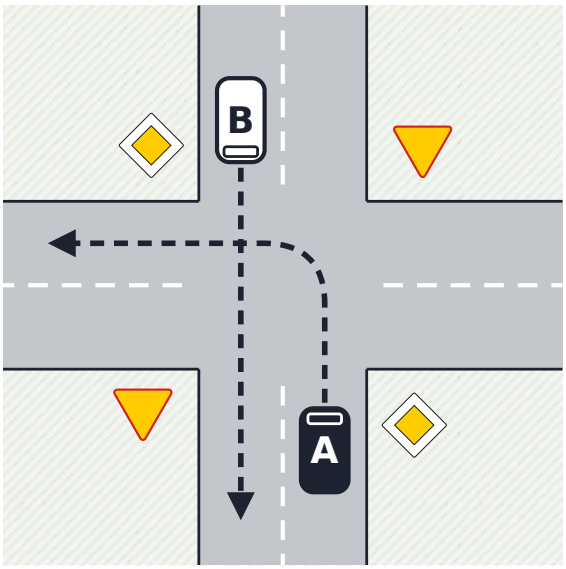

7. Kolejność przejazdu: _____

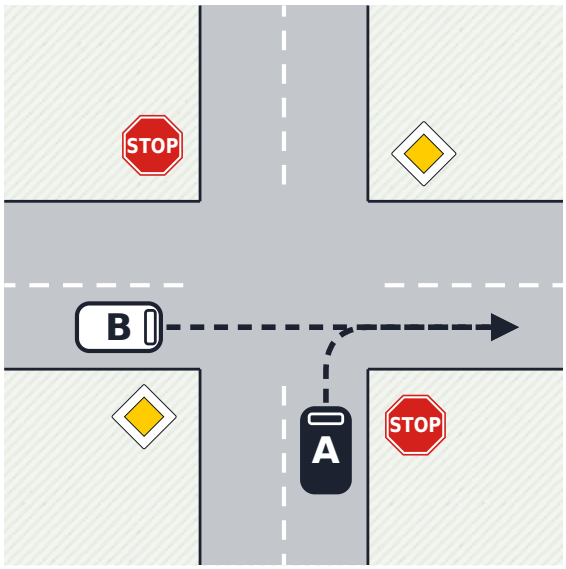

8. Kolejność przejazdu: _____

Kto jedzie pierwszy?

Trudny ●●●

Trzy pojazdy, tramwaj i pieszy. Wpisz litery pojazdów w kolejności przejazdu. Jeśli mogą jechać razem – napisz „A i B”.

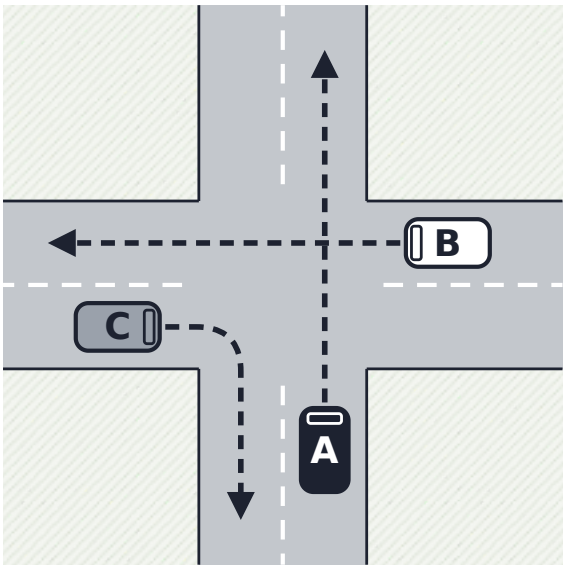

9. Kolejność przejazdu: _____

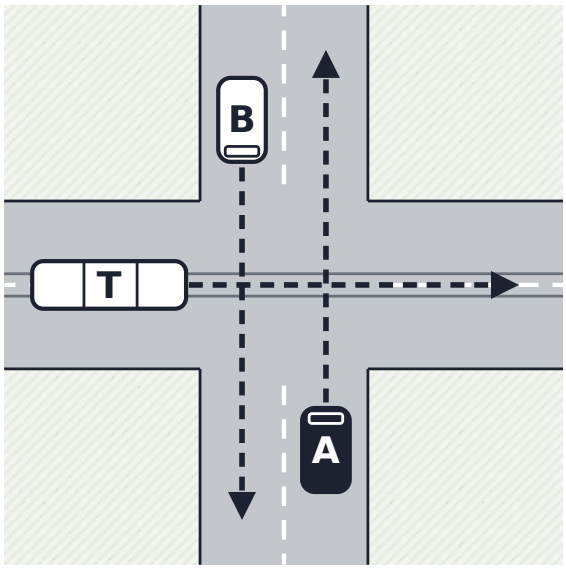

10. Kolejność przejazdu: _____

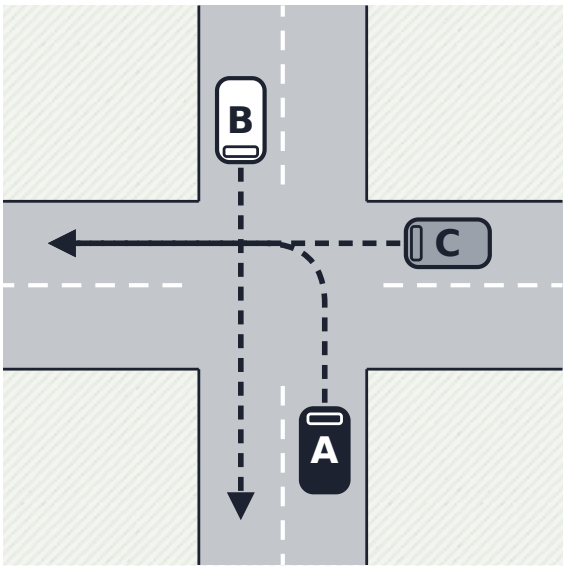

11. Kolejność przejazdu: _____

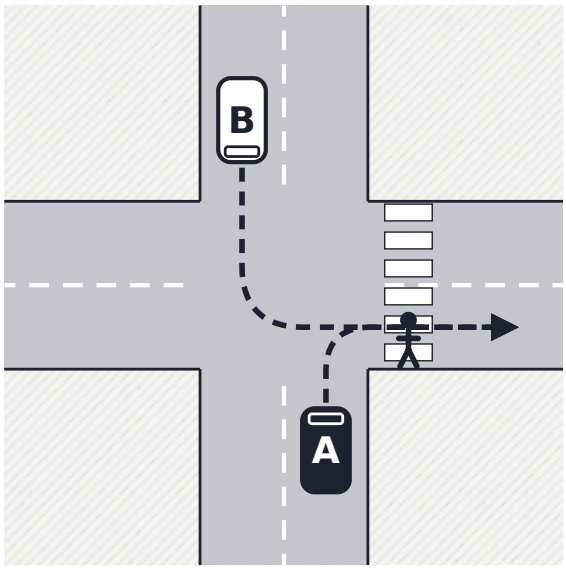

12. Kolejność przejazdu: _____

KLUCZ ODPOWIEDZI

Pierwszeństwo – klucz

1. **B → A** – Skrzyżowanie równorzędne – B jest po prawej stronie A, więc A czeka (art. 25 ust. 1).
2. **A → B** – A ma B po lewej stronie, a B ma A po prawej – B czeka (art. 25 ust. 1).
3. **B → A** – Skręcający w lewo (A) ustępuje jadącemu z przeciwka prosto (art. 25 ust. 1).
4. **A i B** – Tory jazdy się nie przecinają – oba pojazdy mogą jechać jednocześnie.
5. **A → B** – A jedzie drogą z pierwszeństwem (D-1), B ma znak A-7 – B czeka, choć jest z prawej.
6. **B → A** – A ma znak A-7 – ustępuje B jadącemu drogą z pierwszeństwem, także z lewej.
7. **B → A** – Obaj na drodze z pierwszeństwem – A skręca w lewo, więc ustępuje B (art. 25 ust. 1).
8. **B → A** – Znak „stop”: A zatrzymuje się i ustępuje B, bo obaj wjeżdżają na ten sam pas.
9. **B i C → A** – C skręca w prawo i nikogo nie przecina, B jest z prawej strony A – jadą B i C, potem A.
10. **T → A i B** – Tramwaj na skrzyżowaniu równorzędnym ma pierwszeństwo (art. 25 ust. 2); potem A i B – ich tory się nie przecinają.
11. **B → C → A** – B ma C po lewej – jedzie pierwszy. C jest z prawej A – jedzie drugi. A skręca w lewo – na końcu.
12. **pieszy → A → B** – Obaj wjeżdżają na jezdnię, po której idzie pieszy – najpierw pieszy (art. 26 ust. 2). B skręca w lewo, więc ustępuje A.

Kolejność w kluczu sprawdziliśmy programem, który porównuje tory jazdy i stosuje zasady z art. 25–26 Prawa o ruchu drogowym (t.j. Dz.U. 2024 poz. 1251 ze zm.) oraz § 1 rozporządzenia o znakach. Schematy są uproszczone i własne – nie pochodzą z oficjalnej bazy pytań.