Jak działa ten test

Ten test ma **układ jak egzamin teoretyczny na prawo jazdy kategorii B**: 32 pytania – 20 podstawowych (TAK/NIE) i 12 specjalistycznych (A/B/C). Za każde pytanie są 3, 2 albo 1 punkt. Maksymalnie **74 punkty**, a próg zaliczenia to **68 punktów**.

Część	Liczba pytań	Punkty	Czas na egzaminie
Podstawowa (TAK/NIE)	20 (10 × 3 pkt, 6 × 2 pkt, 4 × 1 pkt)	44	20 s na zapoznanie się + 15 s na odpowiedź
Specjalistyczna (A/B/C)	12 (6 × 3 pkt, 4 × 2 pkt, 2 × 1 pkt)	30	50 s na pytanie

- Cały egzamin trwa 25 minut. Do poprzednich pytań nie można wrócić, a brak odpowiedzi to 0 punktów.
- Każde pytanie ma dokładnie jedną poprawną odpowiedź.
- Na kartce: zakreśl odpowiedź, a potem policz punkty z kluczem na końcu. Na egzaminie w WORD pytania są wyświetlane na ekranie, a w podstawowych są filmy i zdjęcia.

To nie jest oficjalna baza pytań. Pytania napisaliśmy sami na podstawie przepisów (Prawo o ruchu drogowym, rozporządzenie o znakach). Przy każdej odpowiedzi w kluczu podajemy artykuł. Oficjalne pytania i filmy udostępnia Ministerstwo Infrastruktury na gov.pl.

TEST PRÓBNY · ZESTAW 1

Prawo jazdy kat. B – zestaw 1

Imię: _____ Klasa: _____ Data: _____

1. Czy wolno zatrzymać pojazd w tunelu (poza miejscem do tego wyznaczonym), jeśli nie wynika to z warunków ruchu? 2 pkt

TAK **NIE**

2. Jedziesz autostradą z prędkością 120 km/h. Czy odstęp 40 m od pojazdu przed Tobą (na tym samym pasie) jest wystarczający według przepisów? 3 pkt

TAK **NIE**

3. Samochód na sąsiednim pasie zatrzymał się przed przejściem, żeby przepuścić pieszego. Czy wolno Ci go ominąć i przejechać obok? 3 pkt

TAK **NIE**

4. Czy wyprzedzając rowerzystę, musisz zachować odstęp co najmniej 1 m? 3 pkt

TAK **NIE**

5. Czy znak B-34 „koniec ograniczenia prędkości” odwołuje ograniczenie wprowadzone znakiem B-33? 2 pkt



TAK **NIE**

6. Zapory na przejeździe kolejowym zaczęły się opuszczać. Czy wolno jeszcze szybko przejechać? 3 pkt

TAK **NIE**

Prawo jazdy kat. B – zestaw 1

7. Czy kierujący musi dostosować prędkość do warunków – np. widoczności, stanu drogi i pogody – nawet jeśli jedzie poniżej limitu? (2 pkt)

TAK **NIE**

8. Sygnalizacja świetlna działa, a przed skrzyżowaniem stoi znak „ustąp pierwszeństwa". Masz zielone światło. Czy znak A-7 jest w tej sytuacji ważniejszy od sygnalizacji? (3 pkt)

TAK **NIE**

9. Jedziesz pojazdem A drogą z pierwszeństwem i skręcasz w lewo. Z naprzeciwka tą samą drogą jedzie prosto pojazd B. Czy musisz ustąpić mu pierwszeństwa? (3 pkt)

TAK **NIE**

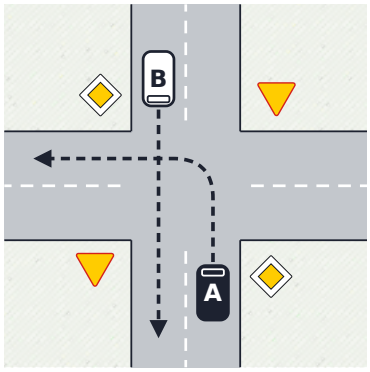

10. Znak B-25 „zakaz wyprzedzania". Czy zabrania on samochodowi osobowemu wyprzedzania innego samochodu? (2 pkt)

TAK **NIE**



11. Czy ten znak zabrania wjazdu pojazdów od strony, po której go umieszczono? (2 pkt)

TAK **NIE**



12. Czy ten znak ostrzega o przejeździe kolejowym bez zapór? (1 pkt)

TAK **NIE**



Prawo jazdy kat. B – zestaw 1

13. Czy ten znak oznacza drogę bez przejazdu? (1 pkt)



TAK NIE

14. Pojazd przed Tobą sygnalizuje skręt w lewo i zjechał do środka jezdni. Czy możesz go wyprzedzić z prawej strony? (3 pkt)

TAK NIE

15. Jedziesz pojazdem A drogą z pierwszeństwem (znak D-1) prosto. Pojazd B wyjeżdża z prawej, z drogi oznaczonej znakiem A-7. Czy musisz ustąpić mu pierwszeństwa? (3 pkt)

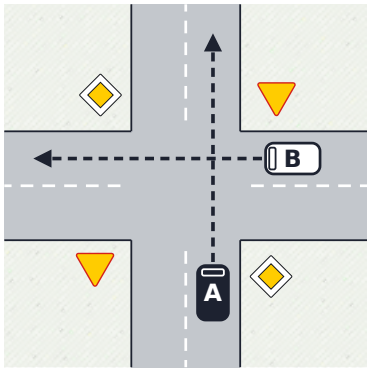

TAK NIE

16. Masz zielone światło, ale za skrzyżowaniem stoi korek i nie zdołasz go opuścić. Czy wolno Ci wjechać na skrzyżowanie? (3 pkt)

TAK NIE

17. Czy podczas mgły możesz jechać na przednich światłach przeciwmgłowych razem ze światłami mijania? (1 pkt)

TAK NIE

18. Czy samochodem osobowym na drodze ekspresowej dwujezdniowej wolno jechać 120 km/h? (2 pkt)

TAK NIE

Prawo jazdy kat. B – zestaw 1

19. Czy wolno wyprzedzać pojazd na przejeździe kolejowym? 3 pkt

TAK NIE

20. Czy na autostradzie wolno zatrzymać się na pasie awaryjnym, żeby zrobić zdjęcie? 1 pkt

TAK NIE

21. Kto może nie zapinać pasów bezpieczeństwa (zwolnienie ustawowe)? 1 pkt

- ☐ **A)** Kierujący taksówką podczas przewożenia pasażera.
- ☐ **B)** Każdy pasażer na tylnym siedzeniu.
- ☐ **C)** Kierujący jadący wolniej niż 30 km/h.

22. Jedziesz drogą z pierwszeństwem i skręcasz w lewo. Z naprzeciwka, też drogą z pierwszeństwem, jedzie prosto samochód. Co robisz? 3 pkt

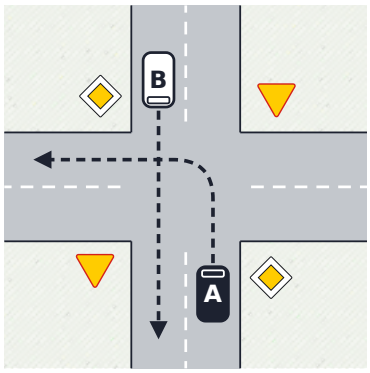

- ☐ **A)** Jedziesz pierwszy – jesteś na drodze z pierwszeństwem.
- ☐ **B)** Ustępujesz pierwszeństwa jadącemu z naprzeciwka.
- ☐ **C)** Jedziecie jednocześnie.

23. Jedziesz drogą ekspresową 100 km/h. Jaki minimalny odstęp od poprzedzającego pojazdu na tym samym pasie wymaga prawo? 3 pkt

- ☐ **A)** 25 m.
- ☐ **B)** 50 m.
- ☐ **C)** 100 m.

Prawo jazdy kat. B – zestaw 1

24. Zgodnie z tym znakiem na skrzyżowaniu wolno: (2 pkt)



- ☐ **A)** jechać tylko prosto.
- ☐ **B)** jechać prosto lub w prawo.
- ☐ **C)** jechać w prawo lub w lewo.

25. Jaka jest dopuszczalna prędkość samochodu osobowego na autostradzie (bez znaków)? (3 pkt)

- ☐ **A)** 120 km/h.
- ☐ **B)** 130 km/h.
- ☐ **C)** 140 km/h.

26. Gdzie ustawisz trójkąt ostrzegawczy po awarii na autostradzie? (3 pkt)

- ☐ **A)** Bezpośrednio za pojazdem.
- ☐ **B)** 30–50 m za pojazdem.
- ☐ **C)** 100 m za pojazdem.

27. Masz obowiązek przełączyć światła drogowe na mijania, gdy... (3 pkt)

- ☐ **A)** zbliża się pojazd z przeciwka.
- ☐ **B)** wjeżdżasz na drogę poza obszarem zabudowanym.
- ☐ **C)** jedziesz w nocy po nieoświetlonej drodze bez innych pojazdów.

28. Co oznacza ten znak? (1 pkt)



- ☐ **A)** Zakaz ruchu pieszych po tej stronie drogi.
- ☐ **B)** Drogę dla pieszych.
- ☐ **C)** Przejście dla pieszych.

Prawo jazdy kat. B – zestaw 1

29. Dziecko w wieku do 7 lat może korzystać z drogi (poza strefą zamieszkania i drogą dla pieszych) pod opieką osoby, która ma co najmniej: (2 pkt)

- ☐ **A)** 10 lat.
- ☐ **B)** 13 lat.
- ☐ **C)** 18 lat.

30. Znak B-35 „zakaz postoju” pozwala na: (2 pkt)



- ☐ **A)** postój do 15 minut.
- ☐ **B)** zatrzymanie trwające nie dłużej niż 1 minutę (o ile nic innego nie wynika ze znaku).
- ☐ **C)** żadne zatrzymanie.

31. Co oznacza ten znak? (2 pkt)



- ☐ **A)** Zakaz zawracania do najbliższego skrzyżowania włącznie.
- ☐ **B)** Zakaz skręcania w lewo.
- ☐ **C)** Nakaz zawracania.

32. Pieszy wchodzi na przejście dla pieszych. Kto ma pierwszeństwo? (3 pkt)

- ☐ **A)** Samochód, bo pieszy jeszcze nie jest na przejściu.
- ☐ **B)** Pieszy.
- ☐ **C)** Ten, kto jest szybszy.

TEST PRÓBNY · ZESTAW 2

Prawo jazdy kat. B – zestaw 2

Imię: _____ Klasa: _____ Data: _____

1. Czy podczas jazdy wolno rozmawiać przez telefon trzymany w ręku? 3 pkt

TAK **NIE**

2. Czy samochód osobowy można zaparkować w całości na chodniku przy krawędzi jezdni, jeśli chodnik ma 1,5 m wolnej szerokości i nie ma zakazu? 1 pkt

TAK **NIE**

3. Jest korek, a Twój samochód stoi w kolejce ponad minutę. Przed Tobą i za Tobą stoją inne auta. Czy wolno wyłączyć światła zewnętrzne? 1 pkt

TAK **NIE**

4. Zamierzasz skręcić w prawo. Czy powinieneś zawczasu zbliżyć się do prawej krawędzi jezdni? 2 pkt

TAK **NIE**

5. Czy wolno wyprzedzać samochód przy dojeżdżaniu do wierzchołka wzniesienia na zwykłej drodze dwukierunkowej? 3 pkt

TAK **NIE**

6. Czy ten znak ostrzega o skrzyżowaniu z drogą podporządkowaną występującą po obu stronach? 2 pkt



TAK **NIE**

TEST PRÓBNY · ZESTAW 2

Prawo jazdy kat. B – zestaw 2

7. Czy wolno zatrzymać samochód 8 m od skrzyżowania? 2 pkt

TAK **NIE**

8. Na skrzyżowaniu stoi ten znak razem ze znakiem A-7. Czy pierwszeństwo mają pojazdy już znajdujące się na rondzie? 2 pkt



TAK **NIE**

9. Jedziesz pojazdem A prosto. Z lewej strony nadjeżdża tramwaj, a skrzyżowanie nie jest oznakowane. Czy musisz ustąpić pierwszeństwa tramwajowi? 3 pkt

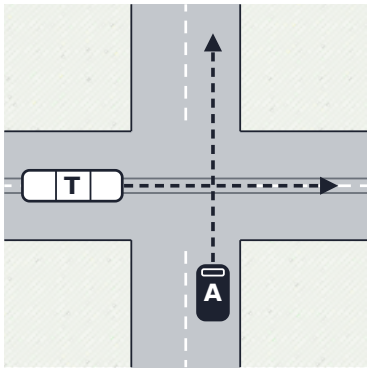

TAK **NIE**

10. Na skrzyżowaniu bez znaków jedziesz pojazdem A prosto. Pojazd B nadjeżdża z lewej strony i też jedzie prosto. Czy musisz ustąpić mu pierwszeństwa? 3 pkt

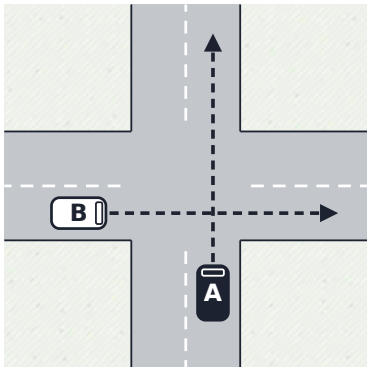

TAK **NIE**

11. Jest mgła, ale widzisz na 150 m. Czy wolno włączyć tylne światła przeciwmgłowe? 2 pkt

TAK **NIE**

Prawo jazdy kat. B – zestaw 2

12. Jedziesz drogą jednokierunkową i widzisz ten znak. Czy ostrzega on, że zaczyna się ruch dwukierunkowy? 1 pkt



TAK **NIE**

13. Na skrzyżowaniu stoi znak „stop”. Droga z pierwszeństwem jest pusta i dobrze widoczna. Czy musisz się zatrzymać przed wjazdem na skrzyżowanie? 3 pkt



TAK **NIE**

14. Czy ten znak oznacza miejsce przeznaczone do przechodzenia pieszych w poprzek drogi? 1 pkt



TAK **NIE**

15. Czy ten znak oznacza koniec drogi z pierwszeństwem? 2 pkt



TAK **NIE**

16. Czy pasażer na tylnym siedzeniu samochodu wyposażonego w pasy musi je zapinać? 3 pkt

TAK **NIE**

17. Skręcasz pojazdem A w prawo. Pieszy przechodzi przez jezdnię drogi, w którą wjeżdżasz. Czy musisz ustąpić mu pierwszeństwa? 3 pkt

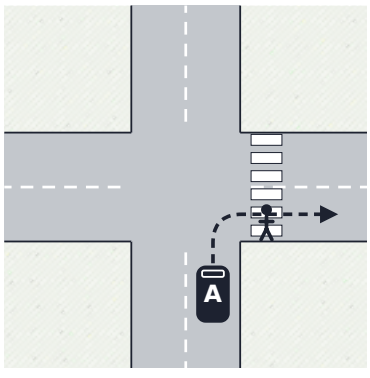

TAK **NIE**

Prawo jazdy kat. B – zestaw 2

18. Czy w strefie zamieszkania wolno jechać z prędkością 30 km/h? (3 pkt)

TAK **NIE**

19. Czy wolno wyprzedzać samochód tuż przed przejściem dla pieszych, na którym ruch nie jest kierowany? (3 pkt)

TAK **NIE**

20. Skręcasz pojazdem A w lewo. Z naprzeciwka pojazd B skręca w prawo. Czy musisz ustąpić mu pierwszeństwa? (3 pkt)

TAK **NIE**

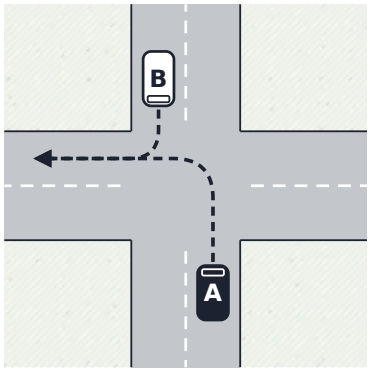

21. Twój samochód zgasł na przejeździe kolejowym i nie da się go usunąć. Co musisz zrobić? (3 pkt)

- ☐ **A)** Czekać w aucie na pomoc drogową.
- ☐ **B)** Ostrzec kierującego pojazdem szynowym o niebezpieczeństwie.
- ☐ **C)** Włączyć tylko światła awaryjne i zostać w pojeździe.

22. Na skrzyżowaniu typu T bez znaków A (z drogi bocznej) skręca w lewo, a B jedzie z lewej strony A prosto drogą przelotową. Kto ma pierwszeństwo? (3 pkt)

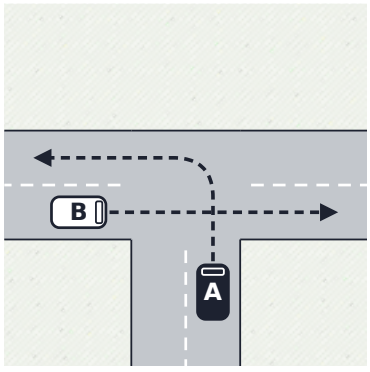

- ☐ **A)** Pojazd B, bo jedzie drogą przelotową.
- ☐ **B)** Pojazd A, bo dla B nadjeżdża z prawej strony.
- ☐ **C)** Ten, kto pierwszy dojechał.

TEST PRÓBNY · ZESTAW 2

Prawo jazdy kat. B – zestaw 2

23. Co oznacza ten znak? (2 pkt)



- ☐ **A)** Zakaz ruchu w obu kierunkach.
- ☐ **B)** Zakaz postoju.
- ☐ **C)** Droga zamknięta tylko dla pieszych.

24. Kiedy zgodnie z przepisami wolno włączyć tylne światła przeciwmgłowe? (3 pkt)

- ☐ **A)** Gdy widoczność jest mniejsza niż 50 m.
- ☐ **B)** Gdy pada deszcz.
- ☐ **C)** Zawsze po zmierzchu poza obszarem zabudowanym.

25. Co oznacza ten znak? (1 pkt)



- ☐ **A)** Parking.
- ☐ **B)** Postój taksówek.
- ☐ **C)** Punkt informacji.

26. Co oznacza ten znak? (2 pkt)



- ☐ **A)** Prędkość minimalną 30 km/h.
- ☐ **B)** Ograniczenie prędkości do 30 km/h.
- ☐ **C)** Strefę ograniczonej prędkości.

27. Co oznacza ten znak? (1 pkt)



- ☐ **A)** Niebezpieczny zakręt w prawo.
- ☐ **B)** Nakaz jazdy w prawo.
- ☐ **C)** Zakaz skręcania w prawo.

28. Co oznacza ten znak? (2 pkt)



- ☐ **A)** Zakaz ruchu w obu kierunkach.
- ☐ **B)** Zakaz wjazdu.
- ☐ **C)** Koniec zakazów.

Prawo jazdy kat. B – zestaw 2

29. Na skrzyżowaniu z działającą sygnalizacją masz zielone światło, a przed skrzyżowaniem stoi znak A-7. Co obowiązuje? (3 pkt)

- ☐ **A)** Znak A-7.
- ☐ **B)** Sygnał zielony – sygnały świetlne mają pierwszeństwo przed znakami regulującymi pierwszeństwo.
- ☐ **C)** Reguła prawej ręki.

30. Do kiedy obowiązuje zakaz wyrażony znakiem B-33 („50”), jeśli nie został wcześniej odwołany? (2 pkt)



- ☐ **A)** Do końca miejscowości.
- ☐ **B)** Do najbliższego skrzyżowania.
- ☐ **C)** Na odcinku 1 km.

31. Które zachowanie jest zgodne z przepisami, gdy na rondzie stoją znaki A-7 i C-12, a Ty chcesz wjechać? (3 pkt)

- ☐ **A)** Wjeżdżasz, bo masz pojazdy na rondzie po lewej stronie.
- ☐ **B)** Ustępujesz pierwszeństwa pojazdom znajdującym się na rondzie.
- ☐ **C)** Pojazdy na rondzie muszą Cię wpuścić.

32. Co jest najważniejsze, gdy policjant kieruje ruchem na skrzyżowaniu ze znakami i sygnalizacją? (3 pkt)

- ☐ **A)** Polecenia policjanta.
- ☐ **B)** Sygnały świetlne.
- ☐ **C)** Znaki drogowe.

KLUCZ ODPOWIEDZI

Zestaw 1 – klucz i punkty

Nr	Odp.	Pkt	Podstawa
1	NIE	2	art. 49 ust. 1 pkt 3 PoRD
2	NIE	3	art. 19 ust. 3a PoRD
3	NIE	3	art. 26 ust. 3 pkt 2 PoRD
4	TAK	3	art. 24 ust. 2 PoRD
5	TAK	2	§ 27 ust. 4 rozp. o znakach
6	NIE	3	art. 28 ust. 3 pkt 1 PoRD
7	TAK	2	art. 19 ust. 1 PoRD
8	NIE	3	art. 5 ust. 3 PoRD
9	TAK	3	art. 25 ust. 1 PoRD
10	TAK	2	§ 23 ust. 1 rozp. o znakach
11	TAK	2	§ 17 ust. 1 rozp. o znakach
12	NIE	1	§ 6 ust. 1 rozp. o znakach
13	TAK	1	§ 45 ust. 1 rozp. o znakach
14	TAK	3	art. 24 ust. 5 PoRD
15	NIE	3	§ 1 pkt 2 rozp. o znakach
16	NIE	3	art. 25 ust. 4 pkt 1 PoRD

Nr	Odp.	Pkt	Podstawa
17	TAK	1	art. 30 ust. 1 pkt 1 lit. a PoRD
18	TAK	2	art. 20 ust. 3 pkt 1 lit. b PoRD
19	NIE	3	art. 28 ust. 3 pkt 3 PoRD
20	NIE	1	art. 49 ust. 3 PoRD
21	A	1	art. 39 ust. 2 pkt 3 PoRD
22	B	3	art. 25 ust. 1 PoRD
23	B	3	art. 19 ust. 3a PoRD
24	B	2	§ 35 ust. 1 rozp. o znakach
25	C	3	art. 20 ust. 3 pkt 1 lit. a PoRD
26	C	3	art. 50 ust. 2 pkt 1 lit. b PoRD
27	A	3	art. 51 ust. 3 pkt 1 PoRD
28	A	1	§ 30 rozp. o znakach
29	A	2	art. 43 ust. 1 PoRD
30	B	2	§ 28 ust. 1 rozp. o znakach
31	A	2	§ 22 ust. 5 rozp. o znakach
32	B	3	art. 13 ust. 1a PoRD

Zaliczone: co najmniej 68 z 74 punktów. Wyjaśnienia do każdego pytania znajdziesz w teście online na glowkowniadruk.pl.

KLUCZ ODPOWIEDZI

Zestaw 2 – klucz i punkty

Nr	Odp.	Pkt	Podstawa
1	NIE	3	art. 45 ust. 2 pkt 1 PoRD
2	TAK	1	art. 47 ust. 2 PoRD
3	TAK	1	art. 51 ust. 7 PoRD
4	TAK	2	art. 22 ust. 2 pkt 1 PoRD
5	NIE	3	art. 24 ust. 7 pkt 1 PoRD
6	TAK	2	§ 5 ust. 2 rozp. o znakach
7	NIE	2	art. 49 ust. 1 pkt 1 PoRD
8	TAK	2	§ 36 ust. 2 rozp. o znakach
9	TAK	3	art. 25 ust. 2 PoRD
10	NIE	3	art. 25 ust. 1 PoRD
11	NIE	2	art. 30 ust. 3 PoRD
12	TAK	1	§ 10 ust. 2 rozp. o znakach
13	TAK	3	§ 21 ust. 1 rozp. o znakach
14	TAK	1	§ 47 ust. 1 rozp. o znakach
15	TAK	2	§ 43 ust. 3 rozp. o znakach
16	TAK	3	art. 39 ust. 1 PoRD

Nr	Odp.	Pkt	Podstawa
17	TAK	3	art. 26 ust. 2 PoRD
18	NIE	3	art. 20 ust. 2 PoRD
19	NIE	3	art. 26 ust. 3 pkt 1 PoRD
20	TAK	3	art. 25 ust. 1 PoRD
21	B	3	art. 28 ust. 4 PoRD
22	B	3	art. 25 ust. 1 PoRD
23	A	2	§ 16 ust. 1 rozp. o znakach
24	A	3	art. 30 ust. 3 PoRD
25	A	1	§ 52 ust. 1 rozp. o znakach
26	A	2	§ 38 ust. 1 rozp. o znakach
27	A	1	§ 4 ust. 1 rozp. o znakach
28	B	2	§ 17 ust. 1 rozp. o znakach
29	B	3	art. 5 ust. 3 PoRD
30	B	2	§ 32 ust. 2 rozp. o znakach
31	B	3	§ 36 ust. 2 rozp. o znakach
32	A	3	art. 5 ust. 2 PoRD

Zaliczone: co najmniej 68 z 74 punktów. Wyjaśnienia do każdego pytania znajdziesz w teście online na glowkowniadruk.pl.