ŚCIĄGA: JAK CZYTAĆ ZEGAR

Która godzina? Godziny słownie

7–9 lat · kl. 1–3

Jak mówimy, która jest godzina?

Krótka czarna wskazówka pokazuje **godzinę**, długa czerwona – **minuty**. Gdy minutowa jest po prawej stronie tarczy (od 12 do 6), mówimy „**po**” i podajemy godzinę, która minęła. Gdy jest po lewej stronie (od 6 do 12), mówimy „**za** … ” i podajemy godzinę, która się zbliża.



pełna godzina
3:00 · minutowa na 12



wpół do czwartej
3:30 · minutowa na 6



kwadrans po trzeciej
3:15 · minutowa na 3



za kwadrans czwarta
3:45 · minutowa na 9



dziesięć po trzeciej
3:10 · minutowa na 2



za dziesięć czwarta
3:50 · minutowa na 10

Zegar cyfrowy	Mówimy potocznie	Mówimy urzędowo (np. w radiu)
7:00	siódma	siódma
7:30	wpół do ósmej	siódma trzydzieści
7:15	kwadrans po siódmej	siódma piętnaście
7:45	za kwadrans ósma	siódma czterdzieści pięć
7:20	dwadzieścia po siódmej	siódma dwadzieścia
7:40	za dwadzieścia ósma	siódma czterdzieści

Uwaga: 7:30 to „wpół do **ósmej**”, a nie „wpół do siódmej” – mówimy o godzinie, do której zostało pół godziny.

Która godzina? Godziny słownie

7–9 lat · kl. 1–3

Imię i nazwisko: _____ Data: _____

Odczytaj godzinę na zegarze. Zamaluj kółko przy właściwym zapisie.



- ◯ jedenasta
- ◯ dziewiąta
- ◯ dziesiąta



- ◯ kwadrans po piątej
- ◯ kwadrans po siódmej
- ◯ kwadrans po szóstej



- ◯ kwadrans po czwartej
- ◯ kwadrans po piątej
- ◯ kwadrans po szóstej



- ◯ za kwadrans dziesiąta
- ◯ za kwadrans dziewiąta
- ◯ za kwadrans ósma



- ◯ wpół do drugiej
- ◯ wpół do trzeciej
- ◯ wpół do czwartej



- ◯ kwadrans po dwunastej
- ◯ kwadrans po pierwszej
- ◯ kwadrans po drugiej



- ◯ za kwadrans dwunasta
- ◯ za kwadrans dziesiąta
- ◯ za kwadrans jedenasta



- ◯ kwadrans po siódmej
- ◯ kwadrans po szóstej
- ◯ kwadrans po ósmej



- ◯ za kwadrans trzecia
- ◯ za kwadrans pierwsza
- ◯ za kwadrans druga

Która godzina? Godziny słownie

7–9 lat · kl. 1–3

Imię i nazwisko: _____ Data: _____

Teraz minuty co 5. Zamaluj kółko przy właściwym zapisie.



- ◯ za dziesięć szósta
- ◯ za dziesięć siódma
- ◯ za dziesięć ósma



- ◯ za dwadzieścia pięć piąta
- ◯ za dwadzieścia pięć szósta
- ◯ za dwadzieścia pięć siódma



- ◯ dwadzieścia po dziewiątej
- ◯ dwadzieścia po jedenastej
- ◯ dwadzieścia po dziesiątej



- ◯ za dwadzieścia pięć druga
- ◯ za dwadzieścia pięć pierwsza
- ◯ za dwadzieścia pięć trzecia



- ◯ za pięć dziewiąta
- ◯ za pięć ósma
- ◯ za pięć siódma



- ◯ dwadzieścia po dwunastej
- ◯ dwadzieścia po jedenastej
- ◯ dwadzieścia po pierwszej



- ◯ pięć po szóstej
- ◯ pięć po siódmej
- ◯ pięć po ósmej



- ◯ dziesięć po trzeciej
- ◯ dziesięć po czwartej
- ◯ dziesięć po piątej



- ◯ dziesięć po trzeciej
- ◯ dziesięć po drugiej
- ◯ dziesięć po czwartej

POŁĄCZ I NAPISZ

Która godzina? Godziny słownie

7–9 lat · kl. 1–3

Imię i nazwisko: _____ Data: _____

1 Połącz zapis cyfrowy z zapisem słownym.

8:00 •	• za pięć szósta
3:20 •	• kwadrans po jedenastej
11:20 •	• za dziesięć piąta
8:30 •	• wpół do dziewiątej
11:15 •	• ósma
4:50 •	• za kwadrans pierwsza
5:55 •	• dwadzieścia po jedenastej
12:45 •	• dwadzieścia po trzeciej

2 Napisz słownie, która jest godzina.

6:10 _____ 10:10 _____

12:20 _____ 6:20 _____

12:15 _____ 9:45 _____

DORYSUJ WSKAZÓWKI

Która godzina? Godziny słownie

7–9 lat · kl. 1–3

Imię i nazwisko: _____ Data: _____

Przeczytaj godzinę zapisaną słownie i dorysuj obie wskazówki: krótką godzinową i długą minutową (najlepiej czerwoną kredką).



dwunasta



za pięć dwunasta



za kwadrans dziesiąta



za dwadzieścia pięć pierwsza



za dziesięć szósta



kwadrans po siódmej



za dziesięć druga



za dziesięć dziewiąta



za pięć szósta

Która godzina? Godziny słownie

7–9 lat · kl. 1–3

Imię i nazwisko: Data:

W każdym wierszu jest tylko jeden zapis. Uzupełnij pozostałe dwa. Możesz dorysować sobie zegar na marginesie.

Cyfrowo	Potocznie	Urzędowo
4:45		
	dwadzieścia pięć po siódmej	
		pierwsza
7:40		
	piąta	
		siódma zero pięć
3:40		
	za dziesięć dwunasta	

O której godzinie wstajesz, a o której idziesz spać? Napisz cyfrowo i słownie.

Która godzina? Godziny słownie

7–9 lat · kl. 1–3

Wybierz zapis (str. 2)

10:00 – dziesiąta · 6:15 – kwadrans po szóstej · 5:15 – kwadrans po piątej · 8:45 – za kwadrans dziewiąta · 2:30 – wpół do trzeciej · 1:15 – kwadrans po pierwszej · 10:45 – za kwadrans jedenasta · 7:15 – kwadrans po siódmej · 1:45 – za kwadrans druga

Minuty co 5 (str. 3)

6:50 – za dziesięć siódma · 5:35 – za dwadzieścia pięć szósta · 10:20 – dwadzieścia po dziesiątej · 1:35 – za dwadzieścia pięć druga · 7:55 – za pięć ósma · 12:20 – dwadzieścia po dwunastej · 7:05 – pięć po siódmej · 4:10 – dziesięć po czwartej · 3:10 – dziesięć po trzeciej

Połącz (str. 4)

8:00 – ósma · 3:20 – dwadzieścia po trzeciej · 11:20 – dwadzieścia po jedenastej · 8:30 – wpół do dziewiątej · 11:15 – kwadrans po jedenastej · 4:50 – za dziesięć piąta · 5:55 – za pięć szósta · 12:45 – za kwadrans pierwsza

Napisz słownie

6:10 – dziesięć po szóstej · 10:10 – dziesięć po dziesiątej · 12:20 – dwadzieścia po dwunastej · 6:20 – dwadzieścia po szóstej · 12:15 – kwadrans po dwunastej · 9:45 – za kwadrans dziesiąta

Dorysuj wskazówki (str. 5)

dwunasta = 12:00 · za pięć dwunasta = 11:55 · za kwadrans dziesiąta = 9:45 · za dwadzieścia pięć pierwsza = 12:35 · za dziesięć szósta = 5:50 · kwadrans po siódmej = 7:15 · za dziesięć druga = 1:50 · za dziesięć dziewiąta = 8:50 · za pięć szósta = 5:55

Potocznie i urzędowo (str. 6)

4:45 – za kwadrans piąta – czwarta czterdzieści pięć · 7:25 – dwadzieścia pięć po siódmej – siódma dwadzieścia pięć · 1:00 – pierwsza – pierwsza · 7:40 – za dwadzieścia ósma – siódma czterdzieści · 5:00 – piąta – piąta · 7:05 – pięć po siódmej – siódma zero pięć · 3:40 – za dwadzieścia czwarta – trzecia czterdzieści · 11:50 – za dziesięć dwunasta – jedenasta pięćdziesiąt

Godziny podajemy w zapisie 12-godzinnym. Rano i po południu mówimy tak samo (np. 7:15 i 19:15 to „kwadrans po siódmej”); urzędowo po południu mówi się też „dziewiętnasta piętnaście”. Przy dorysowywaniu wskazówek sprawdź, czy godzinowa przesuwa się między liczbami (np. przy „wpół do czwartej” stoi w połowie między 3 a 4).

